Une journée sur Mars

Plie le bas de la feuille vers l'arrière. Déplie-le pour vérifier tes réponses.

1. Lis puis réponds.

Demain, notre équipe explorera la plaine rouge. Nous emporterons de l'eau et des instruments. Avant le départ, je vérifierai ma combinaison. Si une tempête approche, nous rentrerons aussitôt dans la base.

Où l'équipe va-t-elle ?

Que vérifiera la narratrice ou le narrateur ?

Que fera l'équipe en cas de tempête ?

2. Réécris au futur avec le sujet proposé.

Je vérifie mon sac. → Nous …

Tu prends ton carnet. → Vous …

Elle revient à la base. → Elles …

3. Mots mêlés

Entoure les mots dans ces sens → ↓ ↘ ↙

	A	B	C	D	E	F	G	H
1	M	L	O	M	Y	X	A	B
2	Z	A	N	G	L	E	N	Z
3	D	I	A	M	È	T	R	E
4	R	A	Y	O	N	I	O	K
5	S	O	M	M	E	T	O	H
6	Y	K	Y	B	I	Q	P	M
7	O	L	E	K	F	W	È	K
8	L	O	S	A	N	G	E	O

La géométrie

SOMMET

DIAMÈTRE

RAYON

LOSANGE

ANGLE

4. Mots croisés

Lis les indices. Une lettre par case, sans accent.



1↓ Dans 2,005, quel est le rang du chiffre 5 ? Écris ce rang au singulier.

2↓ Une pièce d'un centime représente un … d'euro.

3→ Dans 24,36, quel est le rang du chiffre 4 ? Écris ce rang au singulier.

4→ Dans 0,1, le chiffre 1 représente un … de l'unité.

5. Coloriage magique

Calcule. Colorie selon le résultat.

52÷2	32−4	18+8	56÷2	52÷2
26+2	56÷2	60÷2	25+3	56÷2
24+2	34−6	52÷2	27+1	30−4
2×13	52÷2	60÷2	30−4	30−4
30−4	21+7	33−3	52÷2	52÷2

Code

- 26 = blanc
- 28 = bleu
- 30 = jaune

Au crayon, hachure le bleu et fais des points pour le jaune.

6. Labyrinthe

Entre par la gauche. Sors à droite sans traverser un mur.

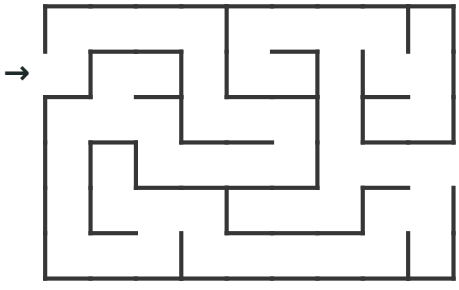

Je vérifie mes réponses

1. Elle explorera la plaine rouge. La combinaison. Elle rentrera aussitôt dans la base.

2. Nous vérifierons notre sac (ou nos sacs). Vous prendrez votre carnet (ou vos carnets). Elles reviendront à la base.

3. Mots mêlés

M	L	O	M	Y	X	A	B
Z	A	N	G	L	E	N	Z
D	I	A	M	È	T	R	E
R	A	Y	O	N	I	O	K
S	O	M	M	E	T	O	H
Y	K	Y	B	I	Q	P	M
O	L	E	K	F	W	È	K
L	O	S	A	N	G	E	O

4. Mots croisés



5. Fleur

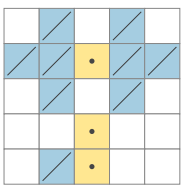

6. Chemin

