# Calculs en voyage

Plie le bas de la feuille vers l'arrière. Déplie-le pour vérifier tes réponses.

## 1. Calcule.

645 + 178

902 − 357

6 × 9

72 ÷ 8

## 2. Résous.

Un train parcourt 235 km le matin et 164 km l'après-midi. Quelle distance au total ?

Un départ est à 9 h 30 et le trajet dure 1 h. À quelle heure arrive-t-on ?

## 3. Mots mêlés

Entoure les mots dans ces sens → ↓ ↘ ↙

| | A | B | C | D | E | F | G | H |
|---|---|---|---|---|---|---|---|---|
| 1 | Q | W | B | J | K | M | W | W |
| 2 | D | O | D | Z | H | F | E | T |
| 3 | Q | I | R | D | U | C | F | J |
| 4 | U | I | T | R | E | N | T | E |
| 5 | I | V | I | N | G | T | X | W |
| 6 | N | K | T | E | G | S | A | J |
| 7 | Z | Q | M | G | Y | L | H | V |
| 8 | E | Z | E | W | B | T | Q | M |

Mesurer des longueurs

**QUINZE**

**VINGT**

**TRENTE**

**CENT**

## 4. Mots croisés

Lis les indices. Une lettre par case, sans accent.

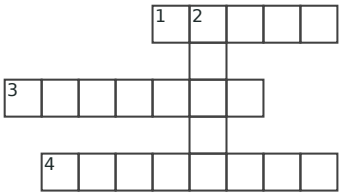


1→ Je … un jeton sur la case (placer au présent).

2↓ Je … les dés (lancer au présent).

3→ Avant la fête, nous … les chaises (placer au présent).

4→ À midi, nous … dehors (manger au présent).

## 5. Coloriage magique

Calcule. Colorie selon le résultat.

| | | | | |
|---|---|---|---|---|
| 17−2 | 9+6 | 11+4 | 8+7 | 13+2 |
| 21−6 | 12+3 | 14+3 | 12+7 | 11+4 |
| 20−5 | 13+4 | 13+4 | 14+3 | 18+1 |
| 15+2 | 25−8 | 21−4 | 25−8 | 20−3 |
| 20−5 | 12+5 | 25−8 | 25−8 | 10+5 |

**Code**

- 15 = blanc
- 17 = bleu
- 19 = jaune

Au crayon, hachure le bleu et fais des points pour le jaune.

## 6. Mini-sudoku

Place 1, 2, 3 et 4 une fois par ligne, par colonne et par carré de quatre cases.

| | | | |
|---|---|---|---|
| 4 | | | 1 |
| | | | |
| 1 | 4 | 2 | |
| 2 | 3 | 1 | |

## Je vérifie mes réponses

1. 823 ; 545 ; 54 ; 9.

2. 399 km ; 10 h 30.

**3. Mots mêlés**




**4. Mots croisés**

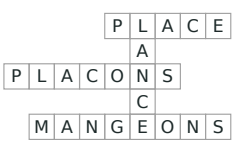


**5. Bateau**

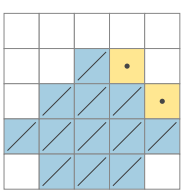

**6. Sudoku**

| | | | |
|---|---|---|---|
| 4 | 2 | 3 | 1 |
| 3 | 1 | 4 | 2 |
| 1 | 4 | 2 | 3 |
| 2 | 3 | 1 | 4 |

Document généré par outilspourlaclasse.fr — site indépendant de l'Éducation nationale