Décimaux et périmètre

Plie le bas de la feuille vers l'arrière. Déplie-le pour vérifier tes réponses.

1. Calcule.

6 708 + 1 945

7 000 − 2 867

36 × 25

3,5 + 2,4

2. Résous.

Un rectangle mesure 12 cm de long et 5 cm de large. Quel est son périmètre ?

Une bouteille contient 1,5 L. On en verse 0,5 L dans un verre. Combien reste-t-il dans la bouteille ?

3. Mots mêlés

Entoure les mots dans ces sens → ↓ ↘ ↙

	A	B	C	D	E	F	G	H
1	N	H	O	G	H	Y	F	E
2	Ê	É	Q	U	Ê	T	E	É
3	H	R	Ê	M	H	S	Ï	P
4	C	O	N	T	E	D	Q	R
5	O	Ï	Z	J	O	R	Ï	E
6	P	N	S	G	T	R	Y	U
7	U	E	R	S	S	L	R	V
8	U	E	É	R	L	R	A	E

Le conte merveilleux

OGRE

CONTE

HÉROÏNE

QUÊTE

ÉPREUVE

4. Mots croisés

Lis les indices. Une lettre par case, sans accent.

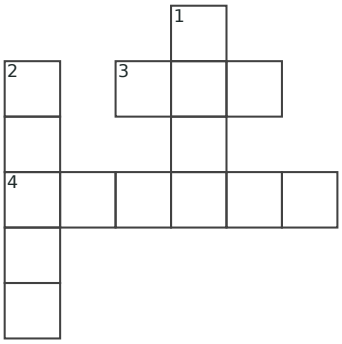

1↓ Elle fournit de l'énergie électrique et possède deux bornes différentes.

2↓ Composant qui émet de la lumière lorsqu'un courant adapté le traverse.

3→ On utilise son cœur métallique pour relier deux composants du circuit.

4→ Il transforme l'énergie électrique en mouvement.

5. Coloriage magique

Calcule. Colorie selon le résultat.

27−6	15+6	46÷2	28−7	42÷2
29−8	27−4	19+4	22+1	25−4
28−5	29−6	15+8	19+4	46÷2
20+1	16+5	50÷2	13+8	23−2
20+1	16+5	19+6	15+6	23−2

Code

- 21 = blanc
- 23 = bleu
- 25 = jaune

Au crayon, hachure le bleu et fais des points pour le jaune.

6. Mini-sudoku

Place 1, 2, 3 et 4 une fois par ligne, par colonne et par carré de quatre cases.

1			3
	4		
		3	2
2			

Je vérifie mes réponses

1. 8 653 ; 4 133 ; 900 ; 5,9.

2. 34 cm ; 1 L.

3. Mots mêlés



4. Mots croisés



5. Arbre

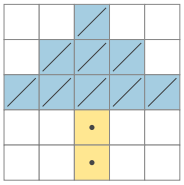

6. Sudoku

1	2	4	3
3	4	2	1
4	1	3	2
2	3	1	4

Document généré par outilspourlaclasse.fr — site indépendant de l'Éducation nationale