# Déduire un ordre

Plie le bas de la feuille vers l'arrière. Déplie-le pour vérifier tes réponses.

## 1. Trouve l'ordre.

Léo, Noé et Ana arrivent à la course. Ana arrive après Léo. Noé arrive après Ana.

Qui arrive en premier ?

Qui arrive en deuxième ?

Qui arrive en dernier ?

## 2. Complète.

Observe les nombres.

100, 110, 120, …, …

250, 240, 230, …, …

5, 10, 15, …, …

## 3. Mots mêlés

Entoure les mots dans ces sens → ↓

| | A | B | C | D | E | F | G | H |
|---|---|---|---|---|---|---|---|---|
| 1 | S | O | M | M | E | T | A | J |
| 2 | R | J | C | V | D | F | J | T |
| 3 | C | C | E | M | I | J | L | B |
| 4 | J | O | R | S | S | P | X | C |
| 5 | L | M | C | M | Q | F | M | S |
| 6 | F | P | L | D | U | E | B | O |
| 7 | S | A | E | U | E | G | J | I |
| 8 | O | S | I | Z | N | J | D | Z |

Les mots pour tracer une figure

**CERCLE**
**COMPAS**
**SOMMET**
**DISQUE**

## 4. Mots croisés

Lis les indices. Une lettre par case, sans accent.

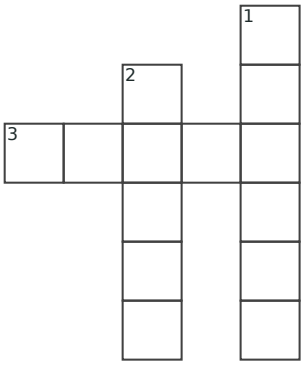


1↓ Combien de minutes dure une demi-heure ? Écris le nombre en lettres.

2↓ Quinze minutes, c'est un … d'heure.

3→ Quelle unité dure soixante minutes ?

## 5. Coloriage magique

Calcule. Colorie selon le résultat.

| | | | | |
|---|---|---|---|---|
| 4+8 | 3+7 | 12−2 | 9+1 | 12−2 |
| 4+8 | 11−1 | 5+5 | 17−7 | 14−4 |
| 4+8 | 12−4 | 5+3 | 1+7 | 3+5 |
| 20−8 | 13−5 | 9−1 | 9−1 | 11−3 |
| 14−2 | 4+4 | 12−4 | 11−3 | 12−4 |

**Code**

- 8 = blanc
- 10 = bleu
- 12 = jaune

Au crayon, hachure le bleu et fais des points pour le jaune.

## 6. Labyrinthe

Entre par la gauche. Sors à droite sans traverser un mur.

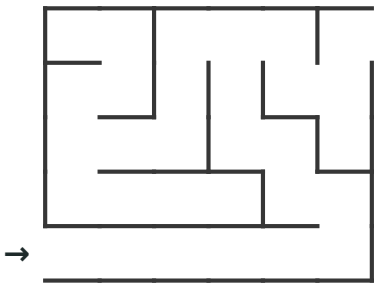


## Je vérifie mes réponses

1. Léo ; Ana ; Noé.

2. 130, 140 ; 220, 210 ; 20, 25.

**3. Mots mêlés**

| | | | | | | | |
|---|---|---|---|---|---|---|---|
| S | O | M | M | E | T | A | J |
| R | J | C | V | D | F | J | T |
| C | C | E | M | I | J | L | B |
| J | O | R | S | S | P | X | C |
| L | M | C | M | Q | F | M | S |
| F | P | L | D | U | E | B | O |
| S | A | E | U | E | G | J | I |
| O | S | I | Z | N | J | D | Z |

**4. Mots croisés**

| | | | | |
|---|---|---|---|---|
| | | | | T |
| | | Q | | R |
| H | E | U | R | E |
| | | A | | N |
| | | R | | T |
| | | T | | E |

**5. Drapeau**

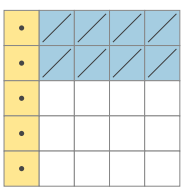

**6. Chemin**

