Figures et propriétés

Plie le bas de la feuille vers l'arrière. Déplie-le pour vérifier tes réponses.

1. Identifie la figure.

Un carré a 4 côtés égaux et 4 angles droits. Un triangle a 3 côtés. Un rectangle a 4 côtés et 4 angles droits.

Figure à 3 côtés : ...

Figure à 4 côtés égaux et 4 angles droits : ...

Figure à 4 côtés et 4 angles droits, plus longue que large : ...

2. Dessine.

Utilise le quadrillage pour tracer un carré et un rectangle plus long que large.

3. Mots mêlés

Entoure les mots dans ces sens → ↓

	A	B	C	D	E	F	G	H
1	X	V	G	È	H	Z	L	B
2	M	B	H	S	V	Q	A	P
3	È	D	U	O	M	B	Y	N
4	C	V	I	C	A	O	M	T
5	H	F	L	I	Q	U	F	B
6	E	X	E	R	Z	G	C	F
7	E	S	I	E	T	I	E	O
8	U	W	Y	G	M	E	R	X

Comment s'éclairait-on autrefois ?

BOUGIE

MÈCHE

CIRE

HUILE

4. Mots croisés

Lis les indices. Une lettre par case, sans accent.



1→ Petit récipient rond pour boire du lait.

2↓ Grande cuillère creuse pour servir la soupe.

3→ On y fait cuire un gâteau.

5. Coloriage magique

Calcule. Colorie selon le résultat.

6+6	10+2	6+6	20−8	10+2
13+1	12+2	12+2	11+3	19−5
18−4	8+8	20−6	24−8	21−7
17−3	12+2	10+6	6+8	6+8
16−2	12+2	12+2	15−1	20−6

Code

- 12 = blanc
- 14 = bleu
- 16 = jaune

Au crayon, hachure le bleu et fais des points pour le jaune.

6. Labyrinthe

Entre par la gauche. Sors à droite sans traverser un mur.

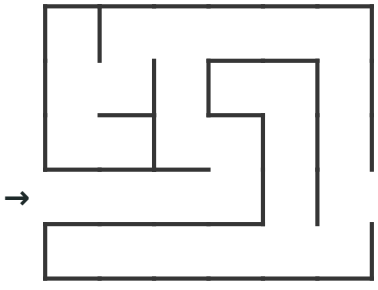

Je vérifie mes réponses

1. Triangle ; carré ; rectangle.

2. Carré : 4 côtés égaux et 4 angles droits. Rectangle : 4 angles droits, plus long que large.

3. Mots mêlés

X	V	G	È	H	Z	L	B
M	B	H	S	V	Q	A	P
È	D	U	O	M	B	Y	N
C	V	I	C	A	O	M	T
H	F	L	I	Q	U	F	B
E	X	E	R	Z	G	C	F
E	S	I	E	T	I	E	O
U	W	Y	G	M	E	R	X

4. Mots croisés

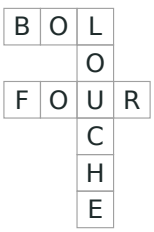

5. Enveloppe

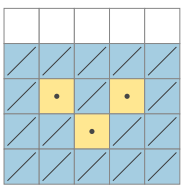

6. Chemin

