Un code de formes

Plie le bas de la feuille vers l'arrière. Déplie-le pour vérifier tes réponses.

1. Décode les messages.

Code : ▲ = 2, ● = 5, ■ = 8. Dans chaque message, additionne les nombres.

▲ + ●

■ + ▲ + ▲

● + ● + ■

2. Trouve le nombre.

Il est plus grand que 40 et plus petit que 50. Son chiffre des unités est le double de celui des dizaines.

Quel est ce nombre ?

Explique ton choix.

3. Mots mêlés

Entoure les mots dans ces sens → ↓ ↘ ↙

	A	B	C	D	E	F	G	H
1	P	É	Z	D	É	Z	R	B
2	K	C	S	E	T	T	E	N
3	D	A	P	D	D	É	S	G
4	W	R	E	W	G	Y	T	Q
5	H	T	Y	C	G	K	E	U
6	N	P	N	E	F	X	C	C
7	G	P	R	O	D	U	I	T
8	É	M	S	O	M	M	E	G

Nommer les quatre opérations

SOMME

ÉCART

PRODUIT

RESTE

4. Mots croisés

Lis les indices. Une lettre par case, sans accent.



1↓ Grande masse de glace sur la terre ferme qui s'écoule très lentement.

2↓ Forme invisible de l'eau à l'état gazeux.

3↓ Immense étendue d'eau salée entre des continents.

4→ Cours d'eau qui se jette dans un autre cours d'eau.

5. Coloriage magique

Calcule. Colorie selon le résultat.

17−5	10+2	2×7	18−6	6+6
2×6	11+3	10+4	16−2	11+1
6+8	7+5	2×7	5+7	2×7
11+1	2×6	2×8	9+3	15−3
2×6	4+8	17−1	2×6	9+3

Code

- 12 = blanc
- 14 = bleu
- 16 = jaune

Au crayon, hachure le bleu et fais des points pour le jaune.

6. Labyrinthe

Entre par la gauche. Sors à droite sans traverser un mur.

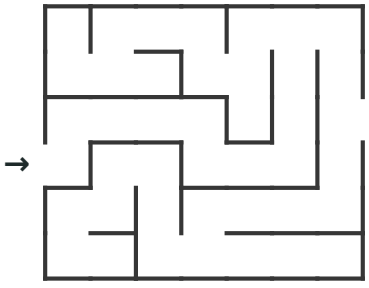

Je vérifie mes réponses

1. 7 ; 12 ; 18.

2. 48 ; son chiffre des dizaines est 4 et celui des unités est 8.

3. Mots mêlés

P	É	Z	D	É	Z	R	B
K	C	S	E	T	T	E	N
D	A	P	D	D	É	S	G
W	R	E	W	G	Y	T	Q
H	T	Y	C	G	K	E	U
N	P	N	E	F	X	C	C
G	P	R	O	D	U	I	T
É	M	S	O	M	M	E	G

4. Mots croisés

G						V	
L						A	
A			O			P	
C			C			E	
R	I	V	I	E	R	E	
E			A			U	
R			N			R	

5. Flèche

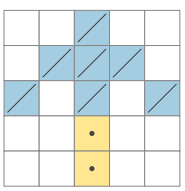

6. Chemin

