Indices et déductions

Plie le bas de la feuille vers l'arrière. Déplie-le pour vérifier tes réponses.

1. Trouve le nombre.

Il a trois chiffres. Son chiffre des centaines est 3. Celui des dizaines est le double de 3. Celui des unités est 2 de moins que celui des dizaines.

Quel est ce nombre ?

Explique les chiffres.

2. Complète les suites.

3, 6, 12, 24, …, …

200, 180, 160, …, …

3. Mots mêlés

Entoure les mots dans ces sens → ↓ ↘ ↙

	A	B	C	D	E	F	G	H
1	C	B	I	F	S	E	S	C
2	F	O	G	A	O	È	R	H
3	F	N	C	N	R	D	E	A
4	R	B	N	T	C	Ô	È	U
5	D	O	C	Ô	I	K	U	D
6	A	N	S	M	È	E	I	R
7	C	T	U	E	R	U	X	O
8	K	S	J	B	E	B	J	N

Halloween

BONBON

CHAUDRON

FANTÔME

SORCIÈRE

4. Mots croisés

Lis les indices. Une lettre par case, sans accent.

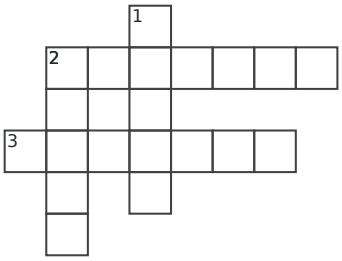

1↓ Je … les dés (lancer au présent).

2→ Avant la fête, nous … les chaises (placer au présent).

2↓ Je … un jeton sur la case (placer au présent).

3→ Dans la cour, nous … le ballon (lancer au présent).

5. Coloriage magique

Calcule. Colorie selon le résultat.

10+5	10+7	10+5	11+6	10+5
16+1	12+5	12+7	22−5	25−8
18−3	16+1	9+6	11+6	7+8
10+5	9+6	16+3	16−1	23−8
14+1	15+2	27−8	7+8	11+4

Code

- 15 = blanc
- 17 = bleu
- 19 = jaune

Au crayon, hachure le bleu et fais des points pour le jaune.

6. Labyrinthe

Entre par la gauche. Sors à droite sans traverser un mur.

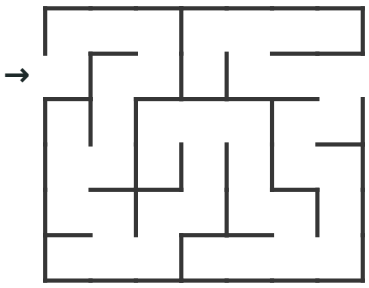

Je vérifie mes réponses

1. 364 ; 3 centaines, 6 dizaines et 4 unités.

2. 48, 96 ; 140, 120.

3. Mots mêlés

C	B	I	F	S	E	S	C
F	O	G	A	O	È	R	H
F	N	C	N	R	D	E	A
R	B	N	T	C	Ô	È	U
D	O	C	Ô	I	K	U	D
A	N	S	M	È	E	I	R
C	T	U	E	R	U	X	O
K	S	J	B	E	B	J	N

4. Mots croisés



5. Fleur

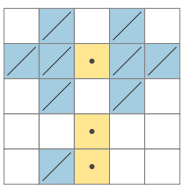

6. Chemin

