Un nombre secret

Plie le bas de la feuille vers l'arrière. Déplie-le pour vérifier tes réponses.

1. Trouve le nombre.

Il a trois chiffres. Le chiffre des centaines est 4. Celui des dizaines est la moitié de 8. La somme des trois chiffres est 13.

Quel est le nombre ?

Explique comment trouver le chiffre des unités.

2. Complète et explique la règle.

2, 5, 8, 11, …, …

1, 2, 4, 8, …, …

3. Mots mêlés

Entoure les mots dans ces sens → ↓ ↘ ↙

	A	B	C	D	E	F	G	H
1	T	E	C	C	D	U	Q	C
2	A	N	H	O	Q	Q	V	L
3	B	O	I	R	A	N	G	A
4	K	M	F	C	E	S	U	S
5	Z	B	F	K	B	N	A	S
6	W	R	R	V	I	G	L	E
7	W	E	E	T	S	W	G	E
8	A	U	É	S	K	X	D	U

Les mots des grands nombres entiers

CLASSE

RANG

CHIFFRE

NOMBRE

UNITÉ

4. Mots croisés

Lis les indices. Une lettre par case, sans accent.

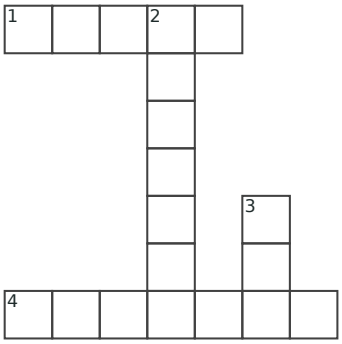

1→ Parcelle de terre cultivée où l'agriculteur sème puis récolte le blé.

2↓ Professionnel qui transforme les grains de céréales en farine au moulin.

3↓ Partie de la plante de blé qui porte les grains au sommet de la tige.

4→ Pièce de travail où le boulanger prépare la pâte et cuit le pain.

5. Coloriage magique

Calcule. Colorie selon le résultat.

36÷2	36÷2	2×9	15+3	36÷2
20−2	12+6	40÷2	2×11	20−2
17+1	40÷2	16+4	40÷2	25−3
16+4	2×10	40÷2	26−6	2×10
23−5	17+3	2×10	2×10	2×9

Code

- 18 = blanc
- 20 = bleu
- 22 = jaune

Au crayon, hachure le bleu et fais des points pour le jaune.

6. Labyrinthe

Entre par la gauche. Sors à droite sans traverser un mur.

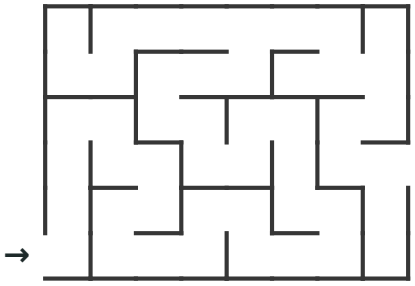

Je vérifie mes réponses

1. 445 ; 13 − 4 − 4 = 5.

2. 14, 17 : ajouter 3 ; 16, 32 : doubler.

3. Mots mêlés



4. Mots croisés



5. Bateau

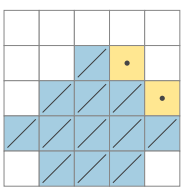

6. Chemin

