Carré logique

Plie le bas de la feuille vers l'arrière. Déplie-le pour vérifier tes réponses.

1. Écris le nombre manquant pour chaque ligne.

Chaque ligne et chaque colonne contient une fois chacun des nombres 1, 2, 3 et 4.

Ligne 1 : 1 | … | 3 | 4

Ligne 2 : 2 | … | 4 | 1

Ligne 3 : 3 | … | 1 | 2

Ligne 4 : 4 | … | 2 | 3

2. Trouve toutes les possibilités.

On fabrique un nombre à deux chiffres distincts avec 2, 4 et 6.

Écris tous les nombres possibles.

Combien y en a-t-il ?

3. Mots mêlés

Entoure les mots dans ces sens → ↓ ↘ ↙

	A	B	C	D	E	F	G	H
1	I	L	L	U	S	I	O	N
2	C	J	M	C	É	L	B	É
3	C	É	É	E	O	A	X	X
4	R	O	M	R	I	N	W	J
5	Â	T	O	V	C	G	É	U
6	N	B	I	E	V	A	M	I
7	E	E	R	A	S	G	Q	H
8	O	O	E	U	C	E	K	T

Le cerveau et les sens

CERVEAU

CRÂNE

MÉMOIRE

ILLUSION

LANGAGE

4. Mots croisés

Lis les indices. Une lettre par case, sans accent.



1↓ Grand virage dessiné par un cours d'eau.

2→ Cours d'eau qui se jette dans un autre.

3→ Côté d'un cours d'eau d'où vient le courant.

3↓ Côté d'un cours d'eau vers lequel va le courant.

5. Coloriage magique

Calcule. Colorie selon le résultat.

2×11	2×11	48÷2	24−2	24−2
44÷2	25−1	2×12	44÷2	44÷2
48÷2	2×12	23+1	52÷2	2×11
52÷2	52÷2	25+1	52÷2	52÷2
24−2	29−3	2×13	30−4	19+3

Code

- 22 = blanc
- 24 = bleu
- 26 = jaune

Au crayon, hachure le bleu et fais des points pour le jaune.

6. Labyrinthe

Entre par la gauche. Sors à droite sans traverser un mur.

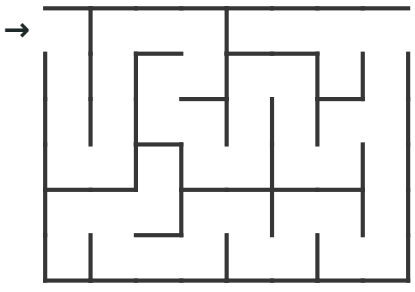

Je vérifie mes réponses

1. Ligne 1 : 2 ; ligne 2 : 3 ; ligne 3 : 4 ; ligne 4 : 1.

2. 24, 26, 42, 46, 62, 64 ; 6 nombres.

3. Mots mêlés

I	L	L	U	S	I	O	N
C	J	M	C	É	L	B	É
C	É	É	E	O	A	X	X
R	O	M	R	I	N	W	J
Â	T	O	V	C	G	É	U
N	B	I	E	V	A	M	I
E	E	R	A	S	G	Q	H
O	O	E	U	C	E	K	T

4. Mots croisés



5. Voilier

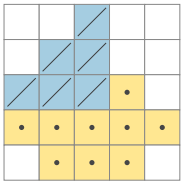

6. Chemin

