Parcours de déduction

Plie le bas de la feuille vers l'arrière. Déplie-le pour vérifier tes réponses.

1. Trouve le nombre.

Il est compris entre 200 et 300. Son chiffre des dizaines est 7. La somme de ses chiffres vaut 13.

Quel est ce nombre ?

Explique ton raisonnement.

2. Résous.

Quatre amis se placent en file. Zoé est devant Léo. Léo est devant Mia. Mia est devant Yan.

Qui est troisième ?

Donne l'ordre complet.

3. Mots mêlés

Entoure les mots dans ces sens → ↓ ↘ ↙

	A	B	C	D	E	F	G	H
1	Q	D	P	É	H	S	P	A
2	C	R	É	N	E	A	U	S
3	B	Y	J	P	R	Y	G	J
4	Z	Q	Y	U	S	S	F	C
5	O	Y	C	P	E	S	B	J
6	Q	R	E	M	P	A	R	T
7	S	E	I	G	N	E	U	R
8	D	O	U	V	E	S	X	L

Les châteaux forts

DOUVES

HERSE

REMPART

CRÉNEAU

SEIGNEUR

4. Mots croisés

Lis les indices. Une lettre par case, sans accent.

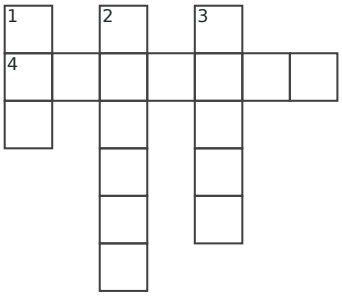

1↓ On utilise son cœur métallique pour relier deux composants du circuit.

2↓ Il transforme l'énergie électrique en mouvement.

3↓ Composant qui émet de la lumière lorsqu'un courant adapté le traverse.

4→ Matériau qui laisse très difficilement passer le courant.

5. Coloriage magique

Calcule. Colorie selon le résultat.

13+8	18+3	21+2	17+4	15+6
14+7	17+6	19+4	16+7	18+3
13+8	22+1	50÷2	25−2	42÷2
46÷2	46÷2	22+1	25−2	20+3
27−6	20+5	42÷2	17+8	17+4

Code

- 21 = blanc
- 23 = bleu
- 25 = jaune

Au crayon, hachure le bleu et fais des points pour le jaune.

6. Labyrinthe

Entre par la gauche. Sors à droite sans traverser un mur.

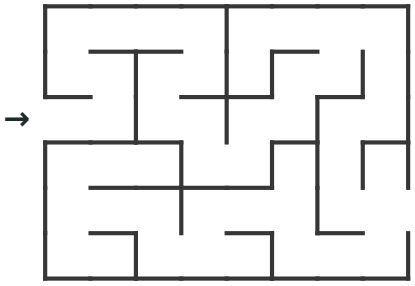

Je vérifie mes réponses

1. 274 ; 2 + 7 + 4 = 13.

2. Mia ; Zoé, Léo, Mia, Yan.

3. Mots mêlés

Q	D	P	É	H	S	P	A
C	R	É	N	E	A	U	S
B	Y	J	P	R	Y	G	J
Z	Q	Y	U	S	S	F	C
O	Y	C	P	E	S	B	J
Q	R	E	M	P	A	R	T
S	E	I	G	N	E	U	R
D	O	U	V	E	S	X	L

4. Mots croisés

F		M		L			
I	S	O	L	A	N	T	
L		T		M			
		E		P			
		U		E			
		R					

5. Fusée

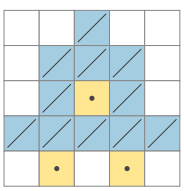

6. Chemin

