Emplois du temps

Plie le bas de la feuille vers l'arrière. Déplie-le pour vérifier tes réponses.

1. Retrouve l'ordre des trois activités et explique.

La lecture, le dessin et le calcul ont lieu l'un après l'autre. Le calcul vient après la lecture. Le dessin est avant la lecture.

2. Résous l'énigme.

Une séance commence à 14 h 35 et dure 50 minutes. Une pause de 10 minutes suit, puis une seconde séance de 35 minutes. À quelle heure se termine la seconde séance ?

3. Mots mêlés

Entoure les mots dans ces sens → ↓ ↘ ↙

	A	B	C	D	E	F	G	H
1	P	L	U	M	E	S	B	V
2	F	O	I	S	E	A	U	X
3	J	I	N	S	E	C	T	E
4	S	K	H	T	F	Y	Q	B
5	V	Q	G	K	O	V	M	Q
6	C	O	Q	U	I	L	L	E
7	Q	F	W	V	N	H	U	F
8	A	N	T	E	N	N	E	S

Classer les animaux par leurs caractères

ANTENNES

COQUILLE

INSECTE

OISEAU

PLUMES

4. Mots croisés

Lis les indices. Une lettre par case, sans accent.

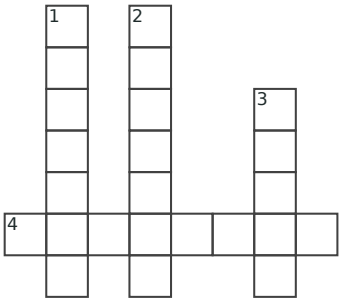

1↓ Conjugue « prendre » avec « tu » à l'imparfait.

2↓ Conjugue « vouloir » avec « elle » à l'imparfait.

3↓ Conjugue « avoir » avec « vous » au futur simple.

4→ Conjugue « finir » avec « vous » au présent de l'indicatif.

5. Coloriage magique

Calcule. Colorie selon le résultat.

23+7	34−6	22+6	31−3	60÷2
22+8	2×14	27+3	2×14	60÷2
60÷2	22+8	60÷2	35−5	38−8
29+1	34−2	33−1	64÷2	2×15
2×14	36−8	31−3	56÷2	56÷2

Code

- 28 = blanc
- 30 = bleu
- 32 = jaune

Au crayon, hachure le bleu et fais des points pour le jaune.

6. Labyrinthe

Entre par la gauche. Sors à droite sans traverser un mur.

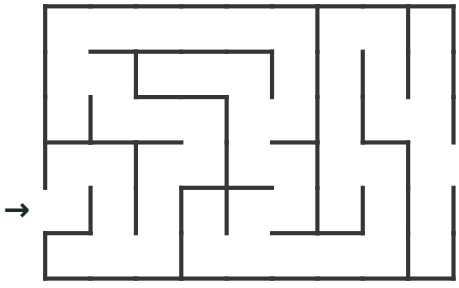

Je vérifie mes réponses

1. Dessin, lecture, calcul.

2. À 16 h 10 : 14 h 35 + 50 min = 15 h 25 ; puis 15 h 35 ; puis 16 h 10.

3. Mots mêlés



4. Mots croisés

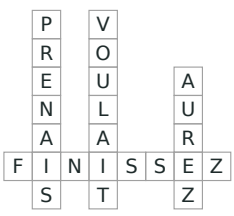

5. Couronne

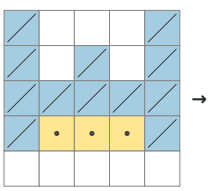

6. Chemin

