Une découverte au grenier

Plie le bas de la feuille vers l'arrière. Déplie-le pour vérifier tes réponses.

1. Lis le texte puis réponds par une phrase.

Lina pousse la porte du grenier. Sous une couverture, elle découvre une boîte de bois. À l'intérieur reposent des cartes jaunies et une clé minuscule. Sa grand-mère sourit : « Cette clé ouvre peut-être le vieux coffre du jardin. »

Où Lina découvre-t-elle la boîte ?

Que contient la boîte ?

Quel objet la clé ouvre-t-elle peut-être ?

2. Réécris chaque phrase au pluriel.

La carte est jaunie.

Le vieux coffre est fermé.

Elle trouve une petite clé.

3. Mots mêlés

Entoure les mots dans ces sens → ↓ ↘ ↙

	A	B	C	D	E	F	G	H
1	H	V	X	B	A	D	G	É
2	C	V	P	I	Z	A	P	T
3	C	R	Q	Q	L	L	O	O
4	Q	L	K	A	A	E	R	I
5	C	S	X	N	Y	C	B	L
6	L	I	È	A	H	E	I	E
7	E	T	C	O	M	È	T	E
8	E	F	A	O	V	F	E	Y

L'espace

ÉTOILE

ORBITE

PLANÈTE

COMÈTE

GALAXIE

4. Mots croisés

Lis les indices. Une lettre par case, sans accent.



1↓ Se dit du climat très froid que l'on trouve en Antarctique.

2→ Période de l'année comme le printemps ou l'automne.

3↓ Se dit d'un climat où il pleut très peu.

4→ Présence de vapeur d'eau dans l'air.

5. Coloriage magique

Calcule. Colorie selon le résultat.

48÷2	2×13	52÷2	2×13	30−6
2×12	32−6	2×12	20+6	29−5
48÷2	52÷2	52÷2	52÷2	25−1
19+5	48÷2	2×14	48÷2	2×12
48÷2	32−8	56÷2	2×14	48÷2

Code

- 24 = blanc
- 26 = bleu
- 28 = jaune

Au crayon, hachure le bleu et fais des points pour le jaune.

6. Labyrinthe

Entre par la gauche. Sors à droite sans traverser un mur.

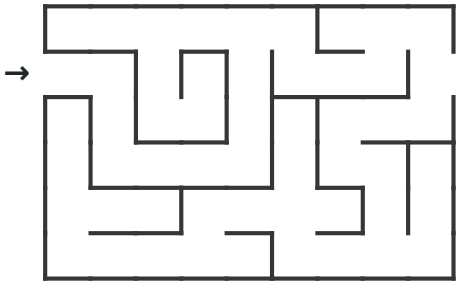

Je vérifie mes réponses

1. Au grenier ; des cartes jaunies et une clé ; le vieux coffre du jardin.

2. Les cartes sont jaunies. Les vieux coffres sont fermés. Elles trouvent de petites clés (ou des petites clés).

3. Mots mêlés



4. Mots croisés



5. Clé

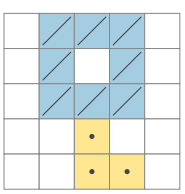

6. Chemin

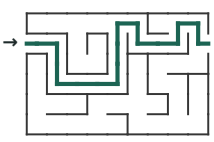

Le marché du quartier

Plie le bas de la feuille vers l'arrière. Déplie-le pour vérifier tes réponses.

1. Calcule. Tu peux poser les opérations au dos de la fiche.

38 475 + 6 829

70 000 − 24 386

246 × 37

2. Résous les problèmes en indiquant tes calculs. Utilise le dos si nécessaire.

Un étal reçoit 8 cagettes de 24 pommes. Il en vend 135. Combien reste-t-il de pommes ?

Une association répartit 96 poires également dans 8 paniers. Combien y a-t-il de poires par panier ?

3. Mots mêlés

Entoure les mots dans ces sens → ↓ ↘ ↙

	A	B	C	D	E	F	G	H
1	É	L	P	G	P	L	J	U
2	L	U	A	I	Q	L	P	V
3	E	D	V	Ï	S	L	G	L
4	C	O	Q	O	C	O	G	Z
5	T	Q	I	C	T	I	F	Z
6	E	Y	B	Y	Q	E	T	N
7	U	D	M	A	I	R	E	É
8	R	Ï	V	X	B	A	B	H

La citoyenneté

LAÏCITÉ

VOTE

ÉLECTEUR

MAIRE

LOI

4. Mots croisés

Lis les indices. Une lettre par case, sans accent.



1↓ Une pièce d'un centime représente un … d'euro.

2↓ Dans 0,1, le chiffre 1 représente un … de l'unité.

3→ Dix dizaines forment une …, comme dans 100,75.

4→ Dans 2,005, quel est le rang du chiffre 5 ? Écris ce rang au singulier.

5. Coloriage magique

Calcule. Colorie selon le résultat.

25+4	54÷2	54÷2	33−6	54÷2
32−3	25+2	31−4	25+2	54÷2
28+1	26−1	33−8	22+3	50÷2
25+4	29−4	19+6	28−3	30−5
30−1	17+8	50÷2	50÷2	28−3

Code

- 25 = blanc
- 27 = bleu
- 29 = jaune

Au crayon, hachure le bleu et fais des points pour le jaune.

6. Mini-sudoku

Place 1, 2, 3 et 4 une fois par ligne, par colonne et par carré de quatre cases.

3	1		
	2		
	3		
1			2

Je vérifie mes réponses

1. 45 304 ; 45 614 ; 9 102.

2. 8 × 24 − 135 = 57 pommes ; 96 ÷ 8 = 12 poires par panier.

3. Mots mêlés



4. Mots croisés



5. Drapeau

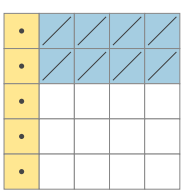

6. Sudoku

3	1	2	4
4	2	1	3
2	3	4	1
1	4	3	2

Document généré par outilspourlaclasse.fr — site indépendant de l'Éducation nationale

Codes et suites

Plie le bas de la feuille vers l'arrière. Déplie-le pour vérifier tes réponses.

1. Complète chaque suite en appliquant la règle indiquée.

Ajoute 7 : 7 ; 14 ; 21 ; 28 ; … ; …

Soustrais 10, puis 9, puis 8, puis 7, puis 6 : 100 ; 90 ; 81 ; 73 ; … ; …

Double puis ajoute 1 : 2 ; 5 ; 11 ; 23 ; … ; …

2. Trouve le code à trois chiffres et explique.

Le chiffre des centaines est 4. Celui des unités est le double de 4. La somme des trois chiffres est 15.

3. Mots mêlés

Entoure les mots dans ces sens → ↓ ↘ ↙

	A	B	C	D	E	F	G	H
1	V	Z	R	B	O	F	I	F
2	L	V	É	P	C	T	Ô	A
3	A	B	U	E	P	Q	I	I
4	R	É	N	S	G	C	C	R
5	G	T	Y	V	A	H	Ô	E
6	E	Ô	I	R	J	O	T	H
7	U	A	R	K	S	É	É	Q
8	R	É	N	E	S	U	P	E

Aire ou périmètre ?

CENT

AIRE

CÔTÉ

LARGEUR

CARRÉ

4. Mots croisés

Lis les indices. Une lettre par case, sans accent.

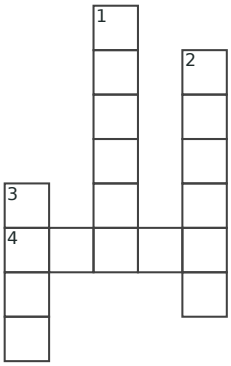

1↓ Grandeur qui mesure la place occupée par un solide dans l'espace.

2↓ Point où se rejoignent plusieurs arêtes d'un polyèdre.

3↓ Chaque surface plane délimitant un polyèdre porte ce nom.

4→ Segment commun à deux faces voisines d'un polyèdre.

5. Coloriage magique

Calcule. Colorie selon le résultat.

29−3	24+2	56÷2	20+6	33−7
2×13	2×13	2×15	2×13	25+1
23+3	33−5	34−6	36−8	52÷2
25+1	2×14	33−5	35−7	2×13
2×13	35−7	2×14	2×14	52÷2

Code

- 26 = blanc
- 28 = bleu
- 30 = jaune

Au crayon, hachure le bleu et fais des points pour le jaune.

6. Labyrinthe

Entre par la gauche. Sors à droite sans traverser un mur.

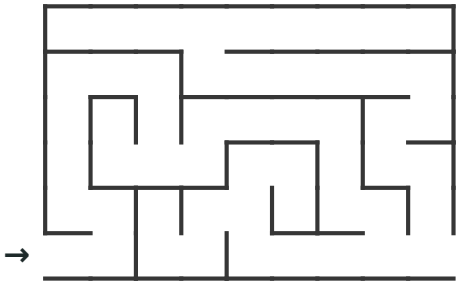

Je vérifie mes réponses

1. 35 ; 42. 66 ; 60. 47 ; 95.

2. 438 : les unités valent 8 et les dizaines valent 15 − 4 − 8 = 3.

3. Mots mêlés



4. Mots croisés



5. Bougie

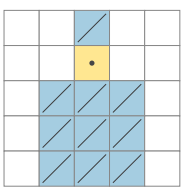

6. Chemin

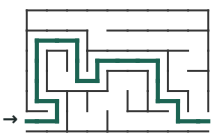

Les animaux et leurs milieux

Plie le bas de la feuille vers l'arrière. Déplie-le pour vérifier tes réponses.

1. Lis puis associe chaque animal à son milieu.

A. Désert : chaleur et peu d'eau. B. Montagne : froid et neige. C. Mare : eau douce.
Le fennec vit dans le désert, le chamois en montagne et la grenouille près des mares.

Fennec

Chamois

Grenouille

2. Réponds à partir du texte.

Quel milieu contient de l'eau douce ?

Quel milieu est froid et enneigé ?

Dans quel milieu vit le fennec ?

3. Mots mêlés

Entoure les mots dans ces sens → ↓ ↘ ↙

	A	B	C	D	E	F	G	H
1	I	N	T	E	R	N	E	T
2	F	I	B	R	E	G	W	Â
3	S	E	R	V	E	U	R	E
4	A	N	T	E	N	N	E	J
5	C	K	F	B	E	O	A	M
6	H	I	U	K	U	A	S	L
7	G	Y	C	Â	B	L	E	U
8	M	S	Z	D	Q	Q	Z	U

Comment Internet relie-t-il les territoires ?

INTERNET
FIBRE
CÂBLE
ANTENNE
SERVEUR

4. Mots croisés

Lis les indices. Une lettre par case, sans accent.

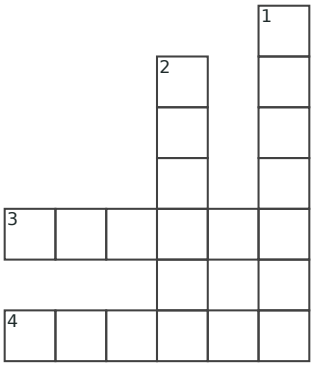

1↓ La Terre et Mars en sont deux exemples.

2↓ Trajet suivi par un astre autour d'un autre.

3→ Astre qui produit sa propre lumière, comme le Soleil.

4→ Petit corps riche en glace qui peut former une queue près du Soleil.

5. Coloriage magique

Calcule. Colorie selon le résultat.

54÷2	20+7	58÷2	21+6	26+1
54÷2	23+6	35−6	22+7	25+2
31−2	23+6	23+6	21+8	32−3
20+7	54÷2	34−3	54÷2	23+4
24+3	32−1	25+6	33−6	21+6

Code

- 27 = blanc
- 29 = bleu
- 31 = jaune

Au crayon, hachure le bleu et fais des points pour le jaune.

6. Mini-sudoku

Place 1, 2, 3 et 4 une fois par ligne, par colonne et par carré de quatre cases.

	1	3	
	2		
		2	4
			3

Je vérifie mes réponses

1. Fennec : A ; chamois : B ; grenouille : C.

2. La mare ; la montagne ; le désert.

3. Mots mêlés

I	N	T	E	R	N	E	T
F	I	B	R	E	G	W	Â
S	E	R	V	E	U	R	E
A	N	T	E	N	N	E	J
C	K	F	B	E	O	A	M
H	I	U	K	U	A	S	L
G	Y	C	Â	B	L	E	U
M	S	Z	D	Q	Q	Z	U

4. Mots croisés

			O		P	
			R		L	
			B		A	
E	T	O	I	L	N	
			T		E	
C	O	M	E	T	T	
					E	

5. Parapluie

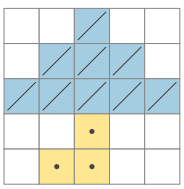

6. Sudoku

4	1	3	2
3	2	4	1
1	3	2	4
2	4	1	3

Le phare dans la brume

Plie le bas de la feuille vers l'arrière. Déplie-le pour vérifier tes réponses.

1. Lis puis réponds aux questions.

Chaque soir, Noé montait au phare avec son père. Ce matin-là, la brume cachait la mer. Pourtant, une cloche résonna au loin. Noé tendit l'oreille, puis aperçut une petite voile entre les nuages gris.

Avec qui Noé montait-il au phare ?

Quels indices lui révèlent la présence d'un bateau ?

Recopie deux verbes à l'imparfait.

2. Réécris au passé composé avec le sujet indiqué.

Noé monte au phare. → Nous …

Il aperçoit une voile. → Ils …

La cloche résonne. → Les cloches …

3. Mots mêlés

Entoure les mots dans ces sens → ↓ ↘ ↙

	A	B	C	D	E	F	G	H
1	S	C	P	R	T	T	C	X
2	O	T	A	T	E	E	D	P
3	D	J	I	A	R	S	C	F
4	E	G	R	R	O	H	T	H
5	S	P	N	V	K	N	G	E
6	D	I	V	I	S	E	U	R
7	Q	U	O	T	I	E	N	T
8	M	U	L	T	I	P	L	E

Diviseurs, multiples et division

DIVISEUR

QUOTIENT

RESTE

MULTIPLE

PAIR

4. Mots croisés

Lis les indices. Une lettre par case, sans accent.

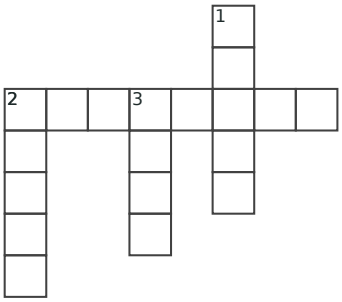

1↓ Organe musculaire dont les battements propulsent le sang.

2→ Nom commun à une artère, une veine et un capillaire sanguin.

2↓ Vaisseau dans lequel le sang revient vers le cœur.

3↓ Liquide rouge qui transporte des gaz et des nutriments dans le corps.

5. Coloriage magique

Calcule. Colorie selon le résultat.

56÷2	56÷2	60÷2	21+7	56÷2
25+3	36−6	60÷2	60÷2	29−1
32−2	35−7	2×15	33−5	2×15
56÷2	23+5	2×16	56÷2	30−2
56÷2	56÷2	2×16	33−5	56÷2

Code

- 28 = blanc
- 30 = bleu
- 32 = jaune

Au crayon, hachure le bleu et fais des points pour le jaune.

6. Labyrinthe

Entre par la gauche. Sors à droite sans traverser un mur.

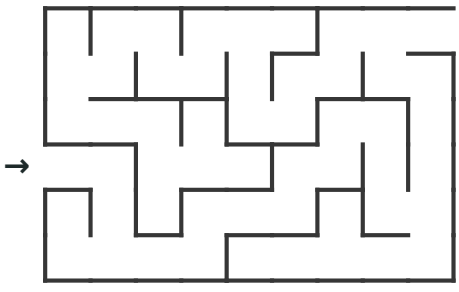

Je vérifie mes réponses

1. Avec son père. La cloche et la petite voile. Par exemple : montait et cachait.

2. Nous sommes montés ou montées au phare. Ils ont aperçu une voile. Les cloches ont résonné.

3. Mots mêlés

S	C	P	R	T	T	C	X
O	T	A	T	E	E	D	P
D	J	I	A	R	S	C	F
E	G	R	R	O	H	T	H
S	P	N	V	K	N	G	E
D	I	V	I	S	E	U	R
Q	U	O	T	I	E	N	T
M	U	L	T	I	P	L	E

4. Mots croisés

					C		
					O		
V	A	I	S	S	E	A	U
E			A		U		
I			N		R		
N			G				
E							

5. Flèche

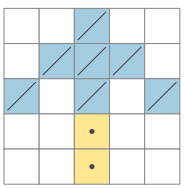

6. Chemin

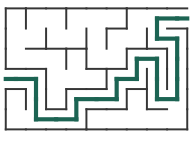

Mesures et décimaux

Plie le bas de la feuille vers l'arrière. Déplie-le pour vérifier tes réponses.

1. Calcule.

12,4 + 3,75

20 − 8,63

3,6 × 4

125 ÷ 5

2. Résous et écris l'unité.

Un ruban de 5 m est coupé en morceaux de 75 cm. Combien de morceaux entiers obtient-on et quelle longueur reste-t-il ?

Une bouteille contient 1,5 L. On verse 40 cL. Combien reste-t-il en cL ?

3. Mots mêlés

Entoure les mots dans ces sens → ↓ ↘ ↙

	A	B	C	D	E	F	G	H
1	D	B	S	G	N	Q	U	C
2	I	P	D	W	D	Z	D	E
3	A	È	C	R	K	D	M	R
4	M	U	E	R	L	I	A	C
5	È	X	N	A	V	S	O	L
6	T	G	T	Y	R	Q	E	E
7	R	E	R	O	X	U	V	U
8	E	W	E	N	K	E	X	O

Construire un cercle et un disque

CENTRE

CERCLE

DISQUE

RAYON

DIAMÈTRE

4. Mots croisés

Lis les indices. Une lettre par case, sans accent.

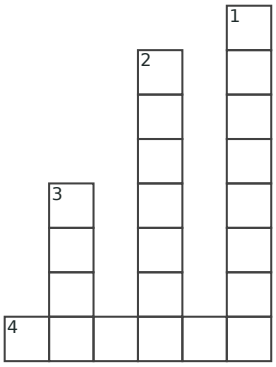

1↓ Personne qui se présente à une élection pour être élue.

2↓ Cabine où l'on peut préparer son bulletin à l'abri des regards.

3↓ Boîte fermée dans laquelle chaque électeur dépose son enveloppe.

4→ Le vote est … quand chacun peut garder son choix pour soi.

5. Coloriage magique

Calcule. Colorie selon le résultat.

20+4	48÷2	2×12	48÷2	2×12
52÷2	52÷2	19+7	19+7	30−4
2×13	56÷2	2×13	31−3	2×13
22+4	2×13	24+4	29−3	20+6
20+6	2×13	33−7	20+6	22+4

Code

- 24 = blanc
- 26 = bleu
- 28 = jaune

Au crayon, hachure le bleu et fais des points pour le jaune.

6. Mini-sudoku

Place 1, 2, 3 et 4 une fois par ligne, par colonne et par carré de quatre cases.

			3
4			
		1	
	4	3	

Je vérifie mes réponses

1. 16,15 ; 11,37 ; 14,4 ; 25.

2. 500 cm = 6 × 75 cm + 50 cm : 6 morceaux et 50 cm. 150 − 40 = 110 cL.

3. Mots mêlés

D	B	S	G	N	Q	U	C
I	P	D	W	D	Z	D	E
A	È	C	R	K	D	M	R
M	U	E	R	L	I	A	C
È	X	N	A	V	S	O	L
T	G	T	Y	R	Q	E	E
R	E	R	O	X	U	V	U
E	W	E	N	K	E	X	O

4. Mots croisés

			I		C
			S		A
			O		N
U			L		D
R			O		I
N			I		D
S	E	C	R	E	T	A

5. Enveloppe

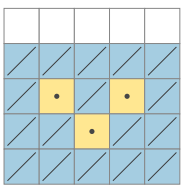

6. Sudoku

2	1	4	3
4	3	2	1
3	2	1	4
1	4	3	2

Document généré par outilspourlaclasse.fr — site indépendant de l'Éducation nationale

Trois livres à ranger

Plie le bas de la feuille vers l'arrière. Déplie-le pour vérifier tes réponses.

1. Trouve l'ordre des livres de gauche à droite et explique.

Trois livres, rouge, bleu et vert, sont alignés. Le rouge est à gauche du bleu. Le vert est à droite du bleu.

2. Trouve tous les nombres possibles.

Je suis un nombre entier supérieur à 20 et inférieur à 40. Je suis multiple de 3 et de 4.

3. Mots mêlés

Entoure les mots dans ces sens → ↓ ↘ ↙

	A	B	C	D	E	F	G	H
1	É	E	K	G	T	I	B	H
2	S	A	I	S	O	N	U	H
3	P	E	K	O	Q	M	B	A
4	T	R	O	P	I	C	A	L
5	P	D	S	D	D	A	A	E
6	D	K	I	G	T	G	Z	R
7	C	T	A	R	I	D	E	D
8	É	P	O	L	A	I	R	E

Le climat

ARIDE

HUMIDITÉ

SAISON

POLAIRE

TROPICAL

4. Mots croisés

Lis les indices. Une lettre par case, sans accent.



1↓ Au présent, conjugue « faire ». Aujourd'hui, vous … une halte au musée.

2↓ Au présent, conjugue « prendre ». Ce matin, je … le car avec la classe.

3→ Au futur simple, conjugue « aller ». Demain, les élèves … au phare.

4→ Au présent, conjugue « aller ». En ce moment, les élèves … vers le port.

5. Coloriage magique

Calcule. Colorie selon le résultat.

21+4	19+6	50÷2	58÷2	17+8
22+3	31−4	22+5	54÷2	21+4
25+2	19+8	30−3	28−1	22+5
21+6	21+6	25+2	54÷2	54÷2
26−1	54÷2	22+5	54÷2	26−1

Code

- 25 = blanc
- 27 = bleu
- 29 = jaune

Au crayon, hachure le bleu et fais des points pour le jaune.

6. Labyrinthe

Entre par la gauche. Sors à droite sans traverser un mur.

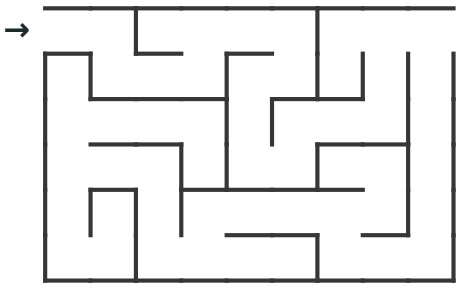

Je vérifie mes réponses

1. Rouge, bleu, vert : bleu est après rouge et avant vert.

2. 24 et 36 : multiples de 12 entre 20 et 40.

3. Mots mêlés



4. Mots croisés



5. Pomme

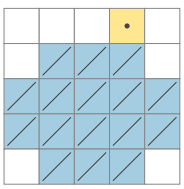

6. Chemin

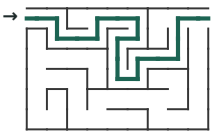

La vie d’une graine

Plie le bas de la feuille vers l’arrière. Déplie-le pour vérifier tes réponses.

1. Remets ces étapes dans l’ordre en recopiant les lettres.

A. La plante adulte produit des graines. B. La graine germe. C. La jeune plante grandit. D. Une graine tombe au sol.

2. Complète les phrases avec : germe, graines, grandit.

La graine … .

La jeune plante … .

La plante adulte produit des … .

3. Mots mêlés

Entoure les mots dans ces sens → ↓ ↘ ↙

	A	B	C	D	E	F	G	H
1	C	E	N	T	A	I	N	E
2	S	W	L	Y	M	D	È	C
3	A	G	Z	H	F	M	T	H
4	V	D	I	Z	A	I	N	E
5	C	E	N	T	I	È	M	E
6	M	S	I	O	I	P	E	W
7	Y	D	I	X	I	È	M	E
8	M	I	L	L	I	È	M	E

Les nombres décimaux

DIZAINE

CENTAINE

DIXIÈME

CENTIÈME

MILLIÈME

4. Mots croisés

Lis les indices. Une lettre par case, sans accent.



1↓ Mouvement de l’eau qui peut faire tourner une hydrolienne.

2→ Ses rayons fournissent de l’énergie aux panneaux photovoltaïques.

3→ Combustible fossile solide, souvent noir, que l’on extrait de mines.

4→ Combustible fossile liquide dont on peut tirer de l’essence.

5. Coloriage magique

Calcule. Colorie selon le résultat.

32−6	30−4	2×13	2×13	2×13
52÷2	27−1	56÷2	60÷2	33−7
2×13	56÷2	23+5	34−6	25+5
56÷2	56÷2	2×14	2×14	2×14
32−6	56÷2	22+6	2×14	30−4

Code

- 26 = blanc
- 28 = bleu
- 30 = jaune

Au crayon, hachure le bleu et fais des points pour le jaune.

6. Mini-sudoku

Place 1, 2, 3 et 4 une fois par ligne, par colonne et par carré de quatre cases.

1	2	4	
2	4		

Je vérifie mes réponses

1. D, B, C, A.

2. germe ; grandit ; graines.

3. Mots mêlés

C	E	N	T	A	I	N	E
S	W	L	Y	M	D	È	C
A	G	Z	H	F	M	T	H
V	D	I	Z	A	I	N	E
C	E	N	T	I	È	M	E
M	S	I	O	I	P	E	W
Y	D	I	X	I	È	M	E
M	I	L	L	I	È	M	E

4. Mots croisés

		C					
	S	O	L	E	I	L	
		U					
		R					
C	H	A	R	B	O	N	
		N					
P	E	T	R	O	L	E	

5. Bateau

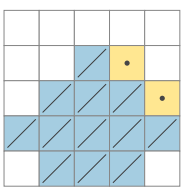

6. Sudoku

1	2	4	3
4	3	1	2
3	1	2	4
2	4	3	1

Document généré par outilspourlaclasse.fr — site indépendant de l'Éducation nationale

Le message de la rivière

Plie le bas de la feuille vers l'arrière. Déplie-le pour vérifier tes réponses.

1. Lis puis réponds aux questions.

Après la pluie, la rivière débordait sur le chemin. Amine s'arrêta devant l'eau boueuse. Sur l'autre rive, son chien aboyait près du pont. Il décida de faire le détour par les hauteurs pour le rejoindre sans traverser le courant.

Pourquoi Amine ne prend-il pas le chemin habituel ?

Où se trouve son chien ?

Que décide de faire Amine ?

2. Classe chaque mot du texte : nom, adjectif, verbe ou pronom personnel.

rivière

boueuse

débordait

Il

3. Mots mêlés

Entoure les mots dans ces sens → ↓ ↘ ↙

	A	B	C	D	E	F	G	H
1	P	A	Q	U	I	N	Z	E
2	S	O	I	X	A	N	T	E
3	E	B	I	R	Q	G	S	N
4	I	I	F	Z	B	D	B	W
5	Z	Q	G	I	B	J	F	D
6	E	E	O	K	D	D	G	U
7	Q	U	A	R	A	N	T	E
8	K	V	I	N	G	T	P	Q

Résoudre des problèmes de proportionnalité

QUINZE

SEIZE

VINGT

QUARANTE

SOIXANTE

4. Mots croisés

Lis les indices. Une lettre par case, sans accent.



1↓ Conjugue « aller » avec « je » au présent de l'indicatif.

2→ Conjugue « prendre » avec « tu » à l'imparfait.

3↓ Conjugue « être » avec « ils » à l'imparfait.

4→ Conjugue « faire » avec « nous » au présent de l'indicatif.

5. Coloriage magique

Calcule. Colorie selon le résultat.

54÷2	26+3	22+5	27+2	31−4
27+2	58÷2	27+2	24+5	22+7
34−5	58÷2	28+3	24+5	58÷2
35−8	58÷2	58÷2	24+5	25+2
54÷2	25+2	28+1	19+8	30−3

Code

- 27 = blanc
- 29 = bleu
- 31 = jaune

Au crayon, hachure le bleu et fais des points pour le jaune.

6. Labyrinthe

Entre par la gauche. Sors à droite sans traverser un mur.

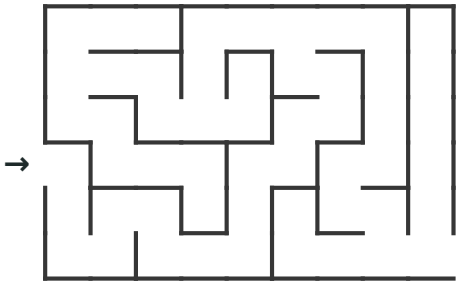

Je vérifie mes réponses

1. La rivière déborde ; sur l'autre rive, près du pont ; il passe par les hauteurs.

2. Nom ; adjectif ; verbe ; pronom personnel.

3. Mots mêlés

P	A	Q	U	I	N	Z	E
S	O	I	X	A	N	T	E
E	B	I	R	Q	G	S	N
I	I	F	Z	B	D	B	W
Z	Q	G	I	B	J	F	D
E	E	O	K	D	D	G	U
Q	U	A	R	A	N	T	E
K	V	I	N	G	T	P	Q

4. Mots croisés

				V				
P	R	E	N	A	I	S		
		T		I				
	F	A	I	S	O	N	S	
		I						
		E						
		N						
		T						

5. Cœur

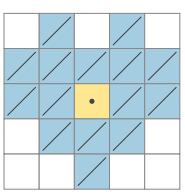

6. Chemin

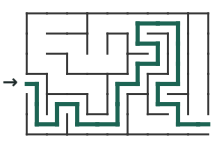

Fractions et partages

Plie le bas de la feuille vers l'arrière. Déplie-le pour vérifier tes réponses.

1. Complète les égalités et compare avec <, > ou =.

1/2 = .../8

3/4 = .../12

5/6 ... 4/6

3/4 ... 2/3

2. Résous les problèmes.

Sur 24 élèves, les 3/4 mangent à la cantine. Combien cela fait-il d'élèves ?

Une randonnée de 12 km est parcourue aux 2/3. Combien de kilomètres reste-t-il ?

3. Mots mêlés

Entoure les mots dans ces sens → ↓ ↘ ↙

	A	B	C	D	E	F	G	H
1	V	K	I	G	Z	T	K	X
2	L	É	G	E	N	D	E	B
3	C	R	I	T	I	Q	U	E
4	C	R	V	X	W	P	H	W
5	A	W	J	I	L	F	A	L
6	D	E	K	E	X	S	D	M
7	R	E	T	O	U	C	H	E
8	E	R	E	F	L	E	T	X

Lire et légender une photographie

CRITIQUE
RETOUCHE
CADRE
REFLET
LÉGENDE

4. Mots croisés

Lis les indices. Une lettre par case, sans accent.



1↓ Vaisseau dans lequel le sang s'éloigne du cœur.

2↓ Liquide rouge qui transporte des gaz et des nutriments dans le corps.

3→ Nom commun à une artère, une veine et un capillaire sanguin.

4→ Organe musculaire dont les battements propulsent le sang.

5. Coloriage magique

Calcule. Colorie selon le résultat.

27+1	56÷2	60÷2	21+7	2×14
30−2	23+7	35−5	60÷2	56÷2
2×15	2×15	36−6	33−3	26+4
30−2	38−8	37−5	60÷2	2×14
31−3	2×15	2×16	22+8	20+8

Code

- 28 = blanc
- 30 = bleu
- 32 = jaune

Au crayon, hachure le bleu et fais des points pour le jaune.

6. Mini-sudoku

Place 1, 2, 3 et 4 une fois par ligne, par colonne et par carré de quatre cases.

2		4	3
	2		
			4

Je vérifie mes réponses

1. 1/2 = 4/8 ; 3/4 = 9/12 ; 5/6 > 4/6 ; 3/4 > 2/3 (9/12 > 8/12).

2. 24 ÷ 4 × 3 = 18 élèves. 12 − (12 ÷ 3 × 2) = 4 km.

3. Mots mêlés

V	K	I	G	Z	T	K	X
L	É	G	E	N	D	E	B
C	R	I	T	I	Q	U	E
C	R	V	X	W	P	H	W
A	W	J	I	L	F	A	L
D	E	K	E	X	S	D	M
R	E	T	O	U	C	H	E
E	R	E	F	L	E	T	X

4. Mots croisés



5. Maison

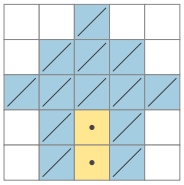

6. Sudoku

2	1	4	3
3	4	1	2
4	2	3	1
1	3	2	4

Document généré par outilspourlaclasse.fr — site indépendant de l'Éducation nationale

Qui possède quel objet ?

Plie le bas de la feuille vers l'arrière. Déplie-le pour vérifier tes réponses.

1. Attribue un objet différent à chaque enfant et explique.

Léa, Sami et Zoé possèdent chacun un objet : une règle, un compas ou une gomme. Léa n'a ni la règle ni la gomme. Sami n'a pas la gomme.

2. Complète en suivant la règle indiquée.

Carrés de 1, 2, 3… : 1 ; 4 ; 9 ; 16 ; … ; …

Double chaque nombre : 3 ; 6 ; 12 ; 24 ; … ; …

3. Mots mêlés

Entoure les mots dans ces sens → ↓ ↘ ↙

	A	B	C	D	E	F	G	H
1	H	X	C	U	M	X	Y	K
2	E	T	O	N	U	U	R	Q
3	N	S	M	N	L	J	E	I
4	T	R	M	Z	T	Z	S	X
5	I	E	U	R	I	G	T	P
6	E	A	N	Z	P	M	E	A
7	R	B	M	P	L	Q	B	I
8	Y	C	S	L	E	Z	W	R

Diviseurs, multiples et division

RESTE

MULTIPLE

PAIR

COMMUN

ENTIER

4. Mots croisés

Lis les indices. Une lettre par case, sans accent.



1↓ Segment qui joint deux points d'un cercle et passe par son centre.

2↓ Nom du segment qui relie le centre d'un cercle à un point de ce cercle.

3→ Un cercle de centre O passe par A. La longueur OA est la … entre O et A.

4→ Point fixe où l'on pose la pointe du compas pour tracer un cercle.

5. Coloriage magique

Calcule. Colorie selon le résultat.

18+6	18+6	32−6	2×12	2×12
29−5	2×13	2×13	52÷2	23+1
2×13	23+3	52÷2	19+7	2×13
18+6	27−3	26+2	27−3	48÷2
16+8	48÷2	26+2	32−8	48÷2

Code

- 24 = blanc
- 26 = bleu
- 28 = jaune

Au crayon, hachure le bleu et fais des points pour le jaune.

6. Labyrinthe

Entre par la gauche. Sors à droite sans traverser un mur.

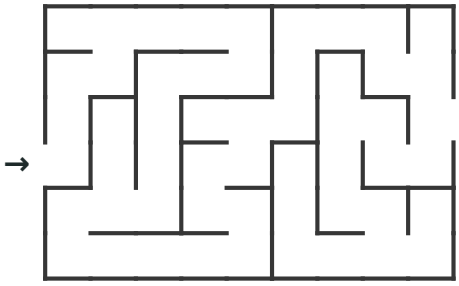

Je vérifie mes réponses

1. Léa : compas ; Sami : règle ; Zoé : gomme.

2. 25 et 36 ; 48 et 96.

3. Mots mêlés

H	X	C	U	M	X	Y	K
E	T	O	N	U	U	R	Q
N	S	M	N	L	J	E	I
T	R	M	Z	T	Z	S	X
I	E	U	R	I	G	T	P
E	A	N	Z	P	M	E	A
R	B	M	P	L	Q	B	I
Y	C	S	L	E	Z	W	R

4. Mots croisés

							D	
							I	
							A	
				R			M	
D	I	S	T	A	N	C	E	
				Y			T	
				O			R	
		C	E	N	T	R	E	

5. Arbre

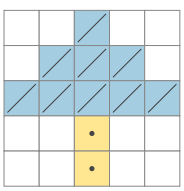

6. Chemin

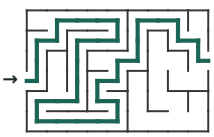

Économiser l'eau

Plie le bas de la feuille vers l'arrière. Déplie-le pour vérifier tes réponses.

1. Lis puis réponds.

Un robinet ouvert laisse couler 6 litres par minute. Pour se brosser les dents, Lina le laisse ouvert 2 minutes. Samir le ferme pendant le brossage : il utilise seulement 1 litre.

Combien de litres Lina utilise-t-elle ?

Combien de litres Samir économise-t-il par rapport à Lina ?

2. Calcule en utilisant les données du texte.

Combien de litres coulent en 3 minutes ?

Combien de litres Lina utiliserait-elle en 5 brossages identiques ?

3. Mots mêlés

Entoure les mots dans ces sens → ↓ ↘ ↙

	A	B	C	D	E	F	G	H
1	B	B	F	S	X	I	E	K
2	H	R	B	C	B	I	A	U
3	F	A	V	H	D	S	R	T
4	G	N	Z	A	W	S	B	I
5	L	C	O	N	J	U	R	R
6	A	H	U	C	W	E	E	A
7	K	E	Q	E	P	D	Y	G
8	D	I	M	S	P	S	Q	E

Dénombrer les issues d'un tirage

ISSUE

ARBRE

BRANCHE

CHANCES

TIRAGE

4. Mots croisés

Lis les indices. Une lettre par case, sans accent.

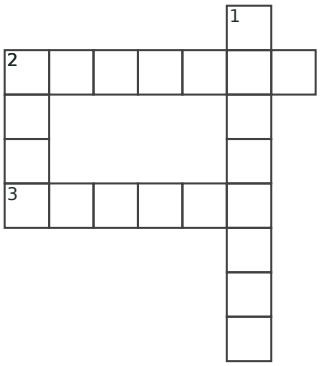

1↓ Conjugue « finir » avec « vous » au présent de l'indicatif.

2→ Conjugue « vouloir » avec « elle » à l'imparfait.

2↓ Conjugue « aller » avec « je » au présent de l'indicatif.

3→ Conjugue « être » avec « nous » au présent de l'indicatif.

5. Coloriage magique

Calcule. Colorie selon le résultat.

23+2	28−3	28−1	50÷2	17+8
28−3	24+3	22+5	18+7	30−5
21+6	54÷2	24+3	26+3	50÷2
58÷2	28+1	26+3	58÷2	58÷2
20+5	21+8	25+4	35−6	32−7

Code

- 25 = blanc
- 27 = bleu
- 29 = jaune

Au crayon, hachure le bleu et fais des points pour le jaune.

6. Mini-sudoku

Place 1, 2, 3 et 4 une fois par ligne, par colonne et par carré de quatre cases.

		4	1
	1	2	4

Je vérifie mes réponses

1. 12 litres ; 11 litres.
2. 18 litres ; 60 litres.

3. Mots mêlés

B	B	F	S	X	I	E	K
H	R	B	C	B	I	A	U
F	A	V	H	D	S	R	T
G	N	Z	A	W	S	B	I
L	C	O	N	J	U	R	R
A	H	U	C	W	E	E	A
K	E	Q	E	P	D	Y	G
D	I	M	S	P	S	Q	E

4. Mots croisés

						F	
V	O	U	L	A	I	T	
A						N	
I						I	
S	O	M	M	E	S		
					S		
					E		
					Z		

5. Voilier

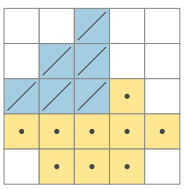

6. Sudoku

1	4	3	2
2	3	4	1
3	1	2	4
4	2	1	3

Document généré par outilspourlaclasse.fr — site indépendant de l'Éducation nationale

Une journée sur Mars

Plie le bas de la feuille vers l'arrière. Déplie-le pour vérifier tes réponses.

1. Lis puis réponds.

Demain, notre équipe explorera la plaine rouge. Nous emporterons de l'eau et des instruments. Avant le départ, je vérifierai ma combinaison. Si une tempête approche, nous rentrerons aussitôt dans la base.

Où l'équipe va-t-elle ?

Que vérifiera la narratrice ou le narrateur ?

Que fera l'équipe en cas de tempête ?

2. Réécris au futur avec le sujet proposé.

Je vérifie mon sac. → Nous …

Tu prends ton carnet. → Vous …

Elle revient à la base. → Elles …

3. Mots mêlés

Entoure les mots dans ces sens → ↓ ↘ ↙

	A	B	C	D	E	F	G	H
1	M	L	O	M	Y	X	A	B
2	Z	A	N	G	L	E	N	Z
3	D	I	A	M	È	T	R	E
4	R	A	Y	O	N	I	O	K
5	S	O	M	M	E	T	O	H
6	Y	K	Y	B	I	Q	P	M
7	O	L	E	K	F	W	È	K
8	L	O	S	A	N	G	E	O

La géométrie

SOMMET

DIAMÈTRE

RAYON

LOSANGE

ANGLE

4. Mots croisés

Lis les indices. Une lettre par case, sans accent.



1↓ Dans 2,005, quel est le rang du chiffre 5 ? Écris ce rang au singulier.

2↓ Une pièce d'un centime représente un … d'euro.

3→ Dans 24,36, quel est le rang du chiffre 4 ? Écris ce rang au singulier.

4→ Dans 0,1, le chiffre 1 représente un … de l'unité.

5. Coloriage magique

Calcule. Colorie selon le résultat.

52÷2	32−4	18+8	56÷2	52÷2
26+2	56÷2	60÷2	25+3	56÷2
24+2	34−6	52÷2	27+1	30−4
2×13	52÷2	60÷2	30−4	30−4
30−4	21+7	33−3	52÷2	52÷2

Code

- 26 = blanc
- 28 = bleu
- 30 = jaune

Au crayon, hachure le bleu et fais des points pour le jaune.

6. Labyrinthe

Entre par la gauche. Sors à droite sans traverser un mur.

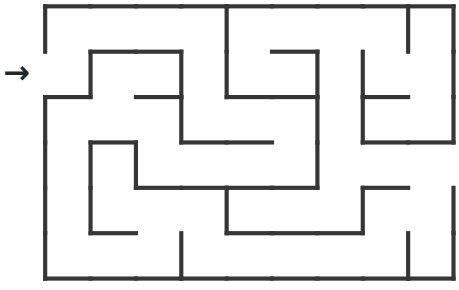

Je vérifie mes réponses

1. Elle explorera la plaine rouge. La combinaison. Elle rentrera aussitôt dans la base.

2. Nous vérifierons notre sac (ou nos sacs). Vous prendrez votre carnet (ou vos carnets). Elles reviendront à la base.

3. Mots mêlés

M	L	O	M	Y	X	A	B
Z	A	N	G	L	E	N	Z
D	I	A	M	È	T	R	E
R	A	Y	O	N	I	O	K
S	O	M	M	E	T	O	H
Y	K	Y	B	I	Q	P	M
O	L	E	K	F	W	È	K
L	O	S	A	N	G	E	O

4. Mots croisés



5. Fleur

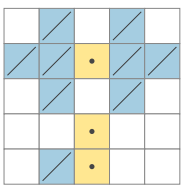

6. Chemin

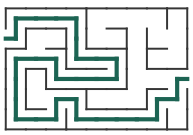

Périmètres et aires

Plie le bas de la feuille vers l'arrière. Déplie-le pour vérifier tes réponses.

1. Calcule le périmètre et l'aire de chaque rectangle.

Longueur 8 cm, largeur 3 cm.

Longueur 12 m, largeur 5 m.

2. Résous et indique tes calculs.

Un carré a un périmètre de 28 cm. Quelle est la longueur de son côté et quelle est son aire ?

Un jardin rectangulaire de 9 m sur 6 m est entouré de grillage sauf une ouverture de 2 m. Quelle longueur de grillage faut-il ?

3. Mots mêlés

Entoure les mots dans ces sens → ↓ ↘ ↙

	A	B	C	D	E	F	G	H
1	D	A	P	B	T	M	É	E
2	É	D	R	G	Y	F	N	A
3	F	V	O	M	B	E	R	P
4	I	E	N	A	L	T	K	R
5	N	R	O	B	I	W	Y	O
6	I	B	M	C	U	M	H	P
7	D	E	L	Z	K	O	J	R
8	D	E	G	S	O	D	A	E

Les classes de mots

ADVERBE

PRONOM

ARTICLE

PROPRE

DÉFINI

4. Mots croisés

Lis les indices. Une lettre par case, sans accent.



1↓ Dans 28,47, quel est le rang du chiffre 2 ? Écris ce rang au singulier.

2→ Une pièce d'un centime représente un … d'euro.

3→ Dans 2,005, quel est le rang du chiffre 5 ? Écris ce rang au singulier.

4→ Dans 24,36, quel est le rang du chiffre 4 ? Écris ce rang au singulier.

5. Coloriage magique

Calcule. Colorie selon le résultat.

22+5	54÷2	29−2	26+1	54÷2
29−2	23+6	22+7	32−5	58÷2
37−8	62÷2	58÷2	24+5	34−5
35−8	37−8	28+1	23+4	31−2
19+8	23+4	31−4	35−8	20+7

Code

- 27 = blanc
- 29 = bleu
- 31 = jaune

Au crayon, hachure le bleu et fais des points pour le jaune.

6. Mini-sudoku

Place 1, 2, 3 et 4 une fois par ligne, par colonne et par carré de quatre cases.

		4	
	4		2
1	3		

Je vérifie mes réponses

1. 22 cm et 24 cm² ; 34 m et 60 m².

2. Côté : 28 ÷ 4 = 7 cm ; aire : 49 cm². Grillage : 2 × (9 + 6) − 2 = 28 m.

3. Mots mêlés



4. Mots croisés

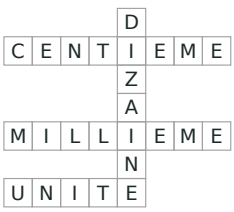

5. Poisson

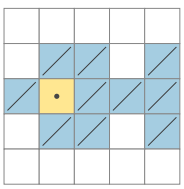

6. Sudoku

2	1	4	3
3	4	1	2
1	3	2	4
4	2	3	1

Document généré par outilspourlaclasse.fr — site indépendant de l'Éducation nationale

Emplois du temps

Plie le bas de la feuille vers l'arrière. Déplie-le pour vérifier tes réponses.

1. Retrouve l'ordre des trois activités et explique.

La lecture, le dessin et le calcul ont lieu l'un après l'autre. Le calcul vient après la lecture. Le dessin est avant la lecture.

2. Résous l'énigme.

Une séance commence à 14 h 35 et dure 50 minutes. Une pause de 10 minutes suit, puis une seconde séance de 35 minutes. À quelle heure se termine la seconde séance ?

3. Mots mêlés

Entoure les mots dans ces sens → ↓ ↘ ↙

	A	B	C	D	E	F	G	H
1	P	L	U	M	E	S	B	V
2	F	O	I	S	E	A	U	X
3	J	I	N	S	E	C	T	E
4	S	K	H	T	F	Y	Q	B
5	V	Q	G	K	O	V	M	Q
6	C	O	Q	U	I	L	L	E
7	Q	F	W	V	N	H	U	F
8	A	N	T	E	N	N	E	S

Classer les animaux par leurs caractères

ANTENNES

COQUILLE

INSECTE

OISEAU

PLUMES

4. Mots croisés

Lis les indices. Une lettre par case, sans accent.

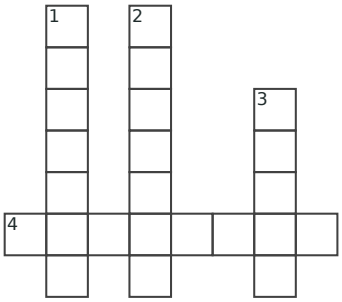

1↓ Conjugue « prendre » avec « tu » à l'imparfait.

2↓ Conjugue « vouloir » avec « elle » à l'imparfait.

3↓ Conjugue « avoir » avec « vous » au futur simple.

4→ Conjugue « finir » avec « vous » au présent de l'indicatif.

5. Coloriage magique

Calcule. Colorie selon le résultat.

23+7	34−6	22+6	31−3	60÷2
22+8	2×14	27+3	2×14	60÷2
60÷2	22+8	60÷2	35−5	38−8
29+1	34−2	33−1	64÷2	2×15
2×14	36−8	31−3	56÷2	56÷2

Code

- 28 = blanc
- 30 = bleu
- 32 = jaune

Au crayon, hachure le bleu et fais des points pour le jaune.

6. Labyrinthe

Entre par la gauche. Sors à droite sans traverser un mur.

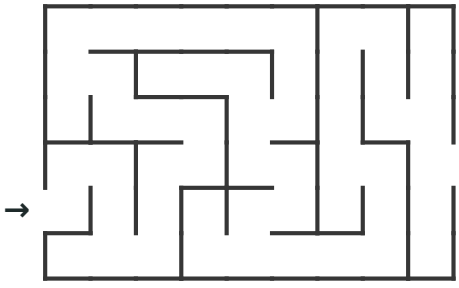

Je vérifie mes réponses

1. Dessin, lecture, calcul.

2. À 16 h 10 : 14 h 35 + 50 min = 15 h 25 ; puis 15 h 35 ; puis 16 h 10.

3. Mots mêlés



4. Mots croisés

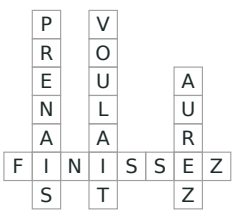

5. Couronne

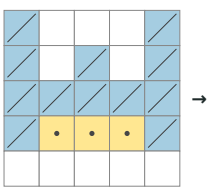

6. Chemin

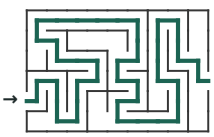

Le parcours d'une goutte

Plie le bas de la feuille vers l'arrière. Déplie-le pour vérifier tes réponses.

1. Replace ces mots dans l'ordre du trajet décrit : condensation, précipitation, évaporation.

L'eau liquide devient vapeur ; la vapeur se refroidit et forme des gouttelettes ; les gouttes tombent du nuage.

2. Associe chaque description au bon mot : évaporation, condensation ou précipitation.

De la vapeur forme des gouttelettes.

De l'eau liquide devient vapeur.

Des gouttes tombent du nuage.

3. Mots mêlés

Entoure les mots dans ces sens → ↓ ↘ ↙

	A	B	C	D	E	F	G	H
1	T	S	D	D	D	C	E	K
2	N	E	S	C	A	L	E	A
3	A	R	C	H	I	P	E	L
4	H	O	R	I	Z	O	N	P
5	T	É	R	Z	Y	K	A	P
6	M	A	R	É	E	K	O	A
7	D	É	T	R	O	I	T	O
8	K	G	N	F	M	T	V	Z

Naviguer d'une escale à l'autre

DÉTROIT

ARCHIPEL

ESCALE

MARÉE

HORIZON

4. Mots croisés

Lis les indices. Une lettre par case, sans accent.



1↓ Principe selon lequel la loi est la même pour tous.

2↓ Ce qu'une personne est autorisée à faire ou à réclamer.

3→ Premier mot de la devise française.

4→ Obligation que chacun est tenu de respecter.

5. Coloriage magique

Calcule. Colorie selon le résultat.

16+8	48÷2	30−4	31−7	29−5
28−4	2×13	24+2	2×13	18+6
26−2	31−5	31−3	2×13	2×12
2×13	2×13	23+3	21+5	31−5
30−6	56÷2	16+8	56÷2	23+1

Code

- 24 = blanc
- 26 = bleu
- 28 = jaune

Au crayon, hachure le bleu et fais des points pour le jaune.

6. Mini-sudoku

Place 1, 2, 3 et 4 une fois par ligne, par colonne et par carré de quatre cases.

1			
	3	2	
	1		2

Je vérifie mes réponses

1. Évaporation, condensation, précipitation.

2. Condensation ; évaporation ; précipitation.

3. Mots mêlés

T	S	D	D	D	C	E	K
N	E	S	C	A	L	E	A
A	R	C	H	I	P	E	L
H	O	R	I	Z	O	N	P
T	É	R	Z	Y	K	A	P
M	A	R	É	E	K	O	A
D	É	T	R	O	I	T	O
K	G	N	F	M	T	V	Z

4. Mots croisés



5. Fusée

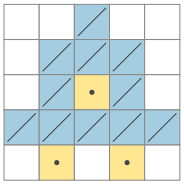

6. Sudoku

1	2	3	4
4	3	2	1
2	4	1	3
3	1	4	2

Le jardin partagé

Plie le bas de la feuille vers l'arrière. Déplie-le pour vérifier tes réponses.

1. Lis puis réponds aux questions.

Les habitants ont transformé le terrain abandonné en jardin partagé. D'abord, ils ont retiré les déchets. Ensuite, ils ont préparé la terre et semé des fleurs. Aujourd'hui, chacun peut venir observer les insectes et prendre soin des plantes.

Comment était le terrain avant ?

Qu'ont fait les habitants avant de semer ?

À quoi sert le jardin aujourd'hui ?

2. Réunis chaque paire de phrases avec le mot indiqué.

Le sol est sec. Nous arrosons. (donc)

Il pleut. Nous restons sous l'abri. (parce que)

Mina sème. Malik arrose. (pendant que)

3. Mots mêlés

Entoure les mots dans ces sens → ↓ ↘ ↙

	A	B	C	D	E	F	G	H
1	E	R	M	P	T	H	M	K
2	N	G	U	Y	P	D	U	J
3	T	U	L	C	A	V	F	L
4	I	S	T	O	R	H	V	S
5	E	L	I	M	T	W	M	P
6	R	M	P	M	A	G	L	A
7	D	O	L	U	G	U	Q	I
8	T	T	E	N	E	F	S	R

Diviseurs, multiples et division

MULTIPLE

PAIR

COMMUN

ENTIER

PARTAGE

4. Mots croisés

Lis les indices. Une lettre par case, sans accent.

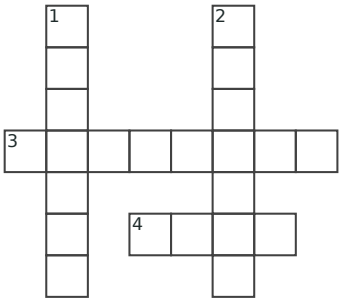

1↓ Principe selon lequel la loi est la même pour tous.

2↓ Premier mot de la devise française.

3→ Personne qui a le droit de participer au scrutin.

4→ Action d'exprimer son choix lors d'une élection.

5. Coloriage magique

Calcule. Colorie selon le résultat.

26−1	50÷2	23+2	24+1	22+3
32−5	22+5	28−1	28−1	19+6
26+1	58÷2	24+5	54÷2	22+5
22+5	21+6	23+4	28−1	23+2
50÷2	22+5	54÷2	31−6	20+5

Code

- 25 = blanc
- 27 = bleu
- 29 = jaune

Au crayon, hachure le bleu et fais des points pour le jaune.

6. Labyrinthe

Entre par la gauche. Sors à droite sans traverser un mur.

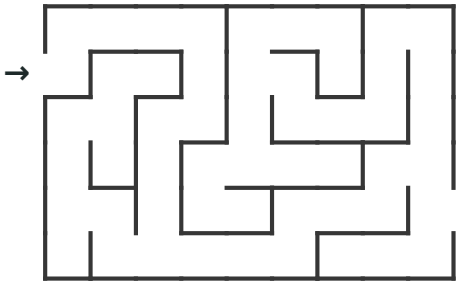

Je vérifie mes réponses

1. Abandonné ; retirer les déchets et préparer la terre ; observer les insectes et soigner les plantes.

2. Le sol est sec, donc nous arrosons. Nous restons sous l'abri parce qu'il pleut. Mina sème pendant que Malik arrose.

3. Mots mêlés

E	R	M	P	T	H	M	K
N	G	U	Y	P	D	U	J
T	U	L	C	A	V	F	L
I	S	T	O	R	H	V	S
E	L	I	M	T	W	M	P
R	M	P	M	A	G	L	A
D	O	L	U	G	U	Q	I
T	T	E	N	E	F	S	R

4. Mots croisés

	E						L	
	G						I	
	A						B	
E	L	E	C	T	E	U	R	
	I						R	
	T			V	O	T	E	
	E						E	

5. Tasse

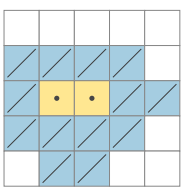

6. Chemin

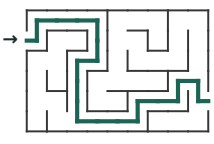

Préparer une sortie

Plie le bas de la feuille vers l'arrière. Déplie-le pour vérifier tes réponses.

1. Résous en détaillant tes calculs. Utilise le dos si nécessaire.

Un car transporte 48 personnes. Combien faut-il de cars pour 125 personnes ?

Le trajet commence à 8 h 45 et dure 1 h 35. À quelle heure arrive-t-on ?

Une entrée coûte 6,50 €. Quel est le prix de 4 entrées ?

2. Calcule le prix de chaque lot.

Un carnet coûte 2,40 €. Tous les carnets coûtent le même prix.

3 carnets

5 carnets

10 carnets

3. Mots mêlés

Entoure les mots dans ces sens → ↓ ↘ ↙

	A	B	C	D	E	F	G	H
1	V	U	V	P	Z	X	K	S
2	A	C	A	O	X	O	K	M
3	I	O	F	U	L	E	N	V
4	S	E	Y	M	T	P	P	S
5	S	U	T	O	E	O	D	A
6	E	R	Q	N	U	U	X	N
7	A	Q	H	S	R	L	Z	G
8	U	D	F	A	O	S	Q	M

Suivre le trajet du sang

SANG

POULS

POUMONS

VAISSEAU

CŒUR

4. Mots croisés

Lis les indices. Une lettre par case, sans accent.

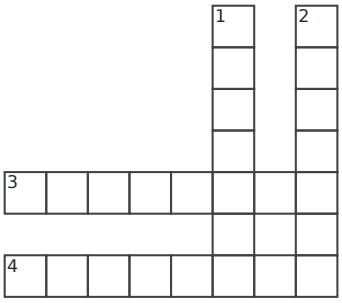

1↓ Dans 28,47, quel est le rang du chiffre 2 ? Écris ce rang au singulier.

2↓ Dans 0,1, le chiffre 1 représente un … de l'unité.

3→ Dix dizaines forment une …, comme dans 100,75.

4→ Une pièce d'un centime représente un … d'euro.

5. Coloriage magique

Calcule. Colorie selon le résultat.

20+6	52÷2	25+3	2×13	31−5
2×13	56÷2	2×14	32−4	24+2
32−6	52÷2	24+4	2×13	52÷2
56÷2	23+5	56÷2	25+3	26+2
2×13	2×13	36−6	52÷2	2×13

Code

- 26 = blanc
- 28 = bleu
- 30 = jaune

Au crayon, hachure le bleu et fais des points pour le jaune.

6. Mini-sudoku

Place 1, 2, 3 et 4 une fois par ligne, par colonne et par carré de quatre cases.

1			
	2		
		2	1
			4

Je vérifie mes réponses

1. 3 cars : 2 ne suffisent pas (96 places). Arrivée à 10 h 20. 4 × 6,50 € = 26 €.

2. 7,20 € ; 12 € ; 24 €.

3. Mots mêlés

V	U	V	P	Z	X	K	S
A	C	A	O	X	O	K	M
I	O	F	U	L	E	N	V
S	E	Y	M	T	P	P	S
S	U	T	O	E	O	D	A
E	R	Q	N	U	U	X	N
A	Q	H	S	R	L	Z	G
U	D	F	A	O	S	Q	M

4. Mots croisés

				D		D		
				I		I		
				Z		X		
				A		I		
C	E	N	T	A	I	N	E	
					N		M	
C	E	N	T	I	E	M	E	

5. Sapin

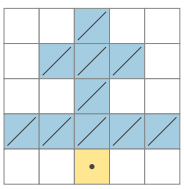

6. Sudoku

1	3	4	2
4	2	1	3
3	4	2	1
2	1	3	4

Document généré par outilspourlaclasse.fr — site indépendant de l'Éducation nationale

Énigmes de fin d’année

Plie le bas de la feuille vers l’arrière. Déplie-le pour vérifier tes réponses.

1. Trouve le nombre et explique.

Je suis un nombre entier à deux chiffres. Mes chiffres ont une somme de 11. Mon chiffre des dizaines est supérieur de 3 à celui des unités.

2. Trouve tous les trajets différents et écris-les.

Pour aller de A à B, on fait exactement deux déplacements : un vers la droite (D) et un vers le haut (H).

3. Mots mêlés

Entoure les mots dans ces sens → ↓ ↘ ↙

	A	B	C	D	E	F	G	H
1	V	K	D	E	C	D	G	Q
2	C	N	E	Q	H	N	R	L
3	S	O	N	H	A	A	A	E
4	S	J	T	V	N	G	N	C
5	U	J	I	J	T	E	D	T
6	O	Z	S	L	E	R	E	U
7	C	D	T	H	R	U	U	R
8	G	V	E	E	B	C	R	E

Les familles de mots

NAGER

LECTURE

GRANDEUR

DENTISTE

CHANTER

4. Mots croisés

Lis les indices. Une lettre par case, sans accent.

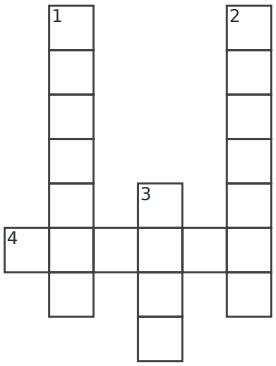

1↓ Combustible fossile solide, souvent noir, que l’on extrait de mines.

2↓ Combustible fossile liquide dont on peut tirer de l’essence.

3↓ C’est son mouvement qui fait tourner les pales d’une éolienne.

4→ Ses rayons fournissent de l’énergie aux panneaux photovoltaïques.

5. Coloriage magique

Calcule. Colorie selon le résultat.

28−1	34−5	27+2	58÷2	31−4
58÷2	32−3	62÷2	24+5	22+7
58÷2	58÷2	23+6	24+5	58÷2
24+3	28−1	62÷2	22+5	29−2
26+1	54÷2	62÷2	54÷2	54÷2

Code

- 27 = blanc
- 29 = bleu
- 31 = jaune

Au crayon, hachure le bleu et fais des points pour le jaune.

6. Labyrinthe

Entre par la gauche. Sors à droite sans traverser un mur.

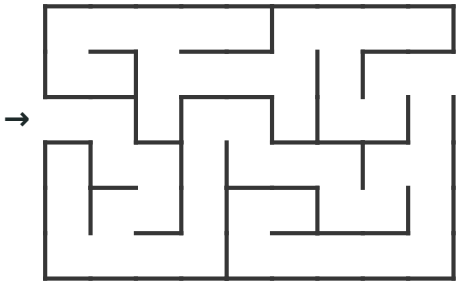

Je vérifie mes réponses

1. 74 : 7 + 4 = 11 et 7 − 4 = 3.

2. Deux trajets : D puis H ; H puis D.

3. Mots mêlés

V	K	D	E	C	D	G	Q
C	N	E	Q	H	N	R	L
S	O	N	H	A	A	A	E
S	J	T	V	N	G	N	C
U	J	I	J	T	E	D	T
O	Z	S	L	E	R	E	U
C	D	T	H	R	U	U	R
G	V	E	E	B	C	R	E

4. Mots croisés

		C						P
		H						E
		A						T
		R						R
		B		V				O
S	O	L	E	I				L
		N		N				E
				T				

5. Champignon 6. Chemin

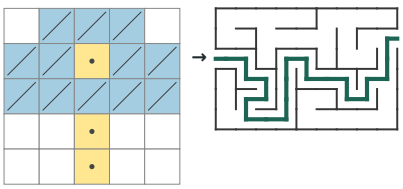

Le plan du quartier

Plie le bas de la feuille vers l'arrière. Déplie-le pour vérifier tes réponses.

1. Lis le plan puis réponds.

Sur une rue, de gauche à droite : école, parc, bibliothèque, mairie. La piscine est en face du parc.

Quel lieu se trouve entre le parc et la mairie ?

Quel lieu est en face du parc ?

Quel lieu est immédiatement à gauche du parc ?

2. Écris les lieux dans l'ordre demandé.

De la mairie à l'école, en suivant la rue.

De l'école à la mairie, en suivant la rue.

3. Mots mêlés

Entoure les mots dans ces sens → ↓ ↘ ↙

	A	B	C	D	E	F	G	H
1	S	A	O	K	F	Q	A	T
2	T	T	U	V	P	V	L	K
3	E	E	V	K	J	A	M	R
4	X	L	R	A	Q	P	A	A
5	T	I	I	X	O	E	G	I
6	I	E	È	E	P	U	C	L
7	L	R	R	I	C	R	N	V
8	E	A	E	Q	B	È	Y	I

L'âge industriel en France

OUVRIÈRE

RAIL

TEXTILE

ATELIER

VAPEUR

4. Mots croisés

Lis les indices. Une lettre par case, sans accent.



1→ Liquide rouge qui transporte des gaz et des nutriments dans le corps.

2↓ Vaisseau dans lequel le sang s'éloigne du cœur.

3↓ Vaisseau dans lequel le sang revient vers le cœur.

4→ Nom commun à une artère, une veine et un capillaire sanguin.

5. Coloriage magique

Calcule. Colorie selon le résultat.

60÷2	2×15	24+4	60÷2	60÷2
2×15	24+6	27+5	35−5	2×15
36−8	2×15	2×16	27+3	35−7
60÷2	22+8	2×16	22+8	2×15
24+6	32−4	2×14	2×14	60÷2

Code

- 28 = blanc
- 30 = bleu
- 32 = jaune

Au crayon, hachure le bleu et fais des points pour le jaune.

6. Mini-sudoku

Place 1, 2, 3 et 4 une fois par ligne, par colonne et par carré de quatre cases.

	3		4
		2	
			2
		3	

Je vérifie mes réponses

1. La bibliothèque ; la piscine ; l'école.

2. Mairie, bibliothèque, parc, école ; école, parc, bibliothèque, mairie.

3. Mots mêlés

S	A	O	K	F	Q	A	T
T	T	U	V	P	V	L	K
E	E	V	K	J	A	M	R
X	L	R	A	Q	P	A	A
T	I	I	X	O	E	G	I
I	E	È	E	P	U	C	L
L	R	R	I	C	R	N	V
E	A	E	Q	B	È	Y	I

4. Mots croisés



5. Papillon

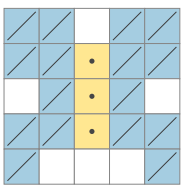

6. Sudoku

2	3	1	4
1	4	2	3
3	1	4	2
4	2	3	1

Document généré par outilspourlaclasse.fr — site indépendant de l'Éducation nationale