Le phare dans la brume

Plie le bas de la feuille vers l'arrière. Déplie-le pour vérifier tes réponses.

1. Lis puis réponds aux questions.

Chaque soir, Noé montait au phare avec son père. Ce matin-là, la brume cachait la mer. Pourtant, une cloche résonna au loin. Noé tendit l'oreille, puis aperçut une petite voile entre les nuages gris.

Avec qui Noé montait-il au phare ?

Quels indices lui révèlent la présence d'un bateau ?

Recopie deux verbes à l'imparfait.

2. Réécris au passé composé avec le sujet indiqué.

Noé monte au phare. → Nous …

Il aperçoit une voile. → Ils …

La cloche résonne. → Les cloches …

3. Mots mêlés

Entoure les mots dans ces sens → ↓ ↘ ↙

	A	B	C	D	E	F	G	H
1	S	C	P	R	T	T	C	X
2	O	T	A	T	E	E	D	P
3	D	J	I	A	R	S	C	F
4	E	G	R	R	O	H	T	H
5	S	P	N	V	K	N	G	E
6	D	I	V	I	S	E	U	R
7	Q	U	O	T	I	E	N	T
8	M	U	L	T	I	P	L	E

Diviseurs, multiples et division

DIVISEUR

QUOTIENT

RESTE

MULTIPLE

PAIR

4. Mots croisés

Lis les indices. Une lettre par case, sans accent.

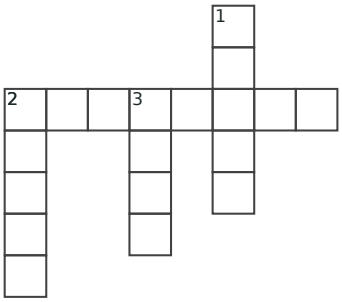

1↓ Organe musculaire dont les battements propulsent le sang.

2→ Nom commun à une artère, une veine et un capillaire sanguin.

2↓ Vaisseau dans lequel le sang revient vers le cœur.

3↓ Liquide rouge qui transporte des gaz et des nutriments dans le corps.

5. Coloriage magique

Calcule. Colorie selon le résultat.

56÷2	56÷2	60÷2	21+7	56÷2
25+3	36−6	60÷2	60÷2	29−1
32−2	35−7	2×15	33−5	2×15
56÷2	23+5	2×16	56÷2	30−2
56÷2	56÷2	2×16	33−5	56÷2

Code

- 28 = blanc
- 30 = bleu
- 32 = jaune

Au crayon, hachure le bleu et fais des points pour le jaune.

6. Labyrinthe

Entre par la gauche. Sors à droite sans traverser un mur.

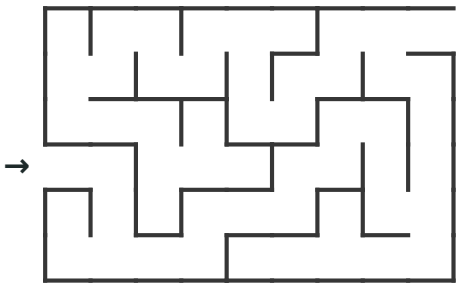

Je vérifie mes réponses

1. Avec son père. La cloche et la petite voile. Par exemple : montait et cachait.

2. Nous sommes montés ou montées au phare. Ils ont aperçu une voile. Les cloches ont résonné.

3. Mots mêlés

S	C	P	R	T	T	C	X
O	T	A	T	E	E	D	P
D	J	I	A	R	S	C	F
E	G	R	R	O	H	T	H
S	P	N	V	K	N	G	E
D	I	V	I	S	E	U	R
Q	U	O	T	I	E	N	T
M	U	L	T	I	P	L	E

4. Mots croisés

					C		
					O		
V	A	I	S	S	E	A	U
E			A		U		
I			N		R		
N			G				
E							

5. Flèche

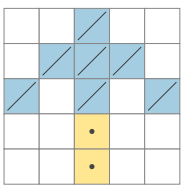

6. Chemin

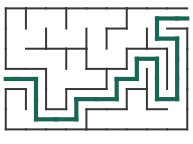

Mesures et décimaux

Plie le bas de la feuille vers l'arrière. Déplie-le pour vérifier tes réponses.

1. Calcule.

12,4 + 3,75

20 − 8,63

3,6 × 4

125 ÷ 5

2. Résous et écris l'unité.

Un ruban de 5 m est coupé en morceaux de 75 cm. Combien de morceaux entiers obtient-on et quelle longueur reste-t-il ?

Une bouteille contient 1,5 L. On verse 40 cL. Combien reste-t-il en cL ?

3. Mots mêlés

Entoure les mots dans ces sens → ↓ ↘ ↙

	A	B	C	D	E	F	G	H
1	D	B	S	G	N	Q	U	C
2	I	P	D	W	D	Z	D	E
3	A	È	C	R	K	D	M	R
4	M	U	E	R	L	I	A	C
5	È	X	N	A	V	S	O	L
6	T	G	T	Y	R	Q	E	E
7	R	E	R	O	X	U	V	U
8	E	W	E	N	K	E	X	O

Construire un cercle et un disque

CENTRE

CERCLE

DISQUE

RAYON

DIAMÈTRE

4. Mots croisés

Lis les indices. Une lettre par case, sans accent.

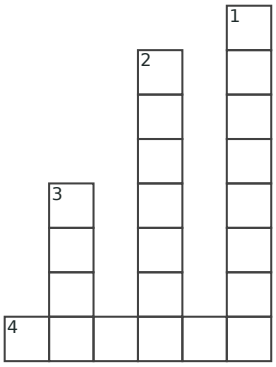

1↓ Personne qui se présente à une élection pour être élue.

2↓ Cabine où l'on peut préparer son bulletin à l'abri des regards.

3↓ Boîte fermée dans laquelle chaque électeur dépose son enveloppe.

4→ Le vote est … quand chacun peut garder son choix pour soi.

5. Coloriage magique

Calcule. Colorie selon le résultat.

20+4	48÷2	2×12	48÷2	2×12
52÷2	52÷2	19+7	19+7	30−4
2×13	56÷2	2×13	31−3	2×13
22+4	2×13	24+4	29−3	20+6
20+6	2×13	33−7	20+6	22+4

Code

- 24 = blanc
- 26 = bleu
- 28 = jaune

Au crayon, hachure le bleu et fais des points pour le jaune.

6. Mini-sudoku

Place 1, 2, 3 et 4 une fois par ligne, par colonne et par carré de quatre cases.

			3
4			
		1	
	4	3	

Je vérifie mes réponses

1. 16,15 ; 11,37 ; 14,4 ; 25.

2. 500 cm = 6 × 75 cm + 50 cm : 6 morceaux et 50 cm. 150 − 40 = 110 cL.

3. Mots mêlés

D	B	S	G	N	Q	U	C
I	P	D	W	D	Z	D	E
A	È	C	R	K	D	M	R
M	U	E	R	L	I	A	C
È	X	N	A	V	S	O	L
T	G	T	Y	R	Q	E	E
R	E	R	O	X	U	V	U
E	W	E	N	K	E	X	O

4. Mots croisés

			I		C
			S		A
			O		N
U			L		D
R			O		I
N			I		D
S	E	C	R	E	T	A

5. Enveloppe

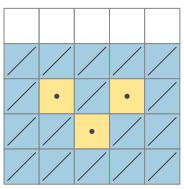

6. Sudoku

2	1	4	3
4	3	2	1
3	2	1	4
1	4	3	2

Document généré par outilspourlaclasse.fr — site indépendant de l'Éducation nationale

Trois livres à ranger

Plie le bas de la feuille vers l'arrière. Déplie-le pour vérifier tes réponses.

1. Trouve l'ordre des livres de gauche à droite et explique.

Trois livres, rouge, bleu et vert, sont alignés. Le rouge est à gauche du bleu. Le vert est à droite du bleu.

2. Trouve tous les nombres possibles.

Je suis un nombre entier supérieur à 20 et inférieur à 40. Je suis multiple de 3 et de 4.

3. Mots mêlés

Entoure les mots dans ces sens → ↓ ↘ ↙

	A	B	C	D	E	F	G	H
1	É	E	K	G	T	I	B	H
2	S	A	I	S	O	N	U	H
3	P	E	K	O	Q	M	B	A
4	T	R	O	P	I	C	A	L
5	P	D	S	D	D	A	A	E
6	D	K	I	G	T	G	Z	R
7	C	T	A	R	I	D	E	D
8	É	P	O	L	A	I	R	E

Le climat

ARIDE

HUMIDITÉ

SAISON

POLAIRE

TROPICAL

4. Mots croisés

Lis les indices. Une lettre par case, sans accent.



1↓ Au présent, conjugue « faire ». Aujourd'hui, vous … une halte au musée.

2↓ Au présent, conjugue « prendre ». Ce matin, je … le car avec la classe.

3→ Au futur simple, conjugue « aller ». Demain, les élèves … au phare.

4→ Au présent, conjugue « aller ». En ce moment, les élèves … vers le port.

5. Coloriage magique

Calcule. Colorie selon le résultat.

21+4	19+6	50÷2	58÷2	17+8
22+3	31−4	22+5	54÷2	21+4
25+2	19+8	30−3	28−1	22+5
21+6	21+6	25+2	54÷2	54÷2
26−1	54÷2	22+5	54÷2	26−1

Code

- 25 = blanc
- 27 = bleu
- 29 = jaune

Au crayon, hachure le bleu et fais des points pour le jaune.

6. Labyrinthe

Entre par la gauche. Sors à droite sans traverser un mur.

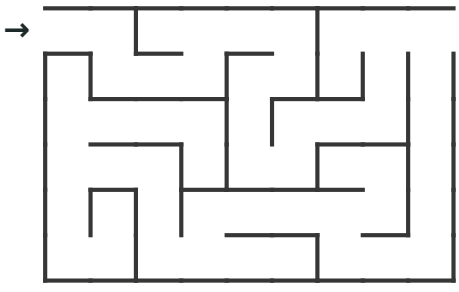

Je vérifie mes réponses

1. Rouge, bleu, vert : bleu est après rouge et avant vert.

2. 24 et 36 : multiples de 12 entre 20 et 40.

3. Mots mêlés



4. Mots croisés



5. Pomme

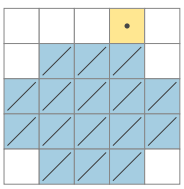

6. Chemin

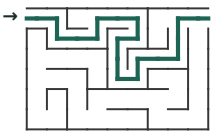

La vie d’une graine

Plie le bas de la feuille vers l’arrière. Déplie-le pour vérifier tes réponses.

1. Remets ces étapes dans l’ordre en recopiant les lettres.

A. La plante adulte produit des graines. B. La graine germe. C. La jeune plante grandit. D. Une graine tombe au sol.

2. Complète les phrases avec : germe, graines, grandit.

La graine … .

La jeune plante … .

La plante adulte produit des … .

3. Mots mêlés

Entoure les mots dans ces sens → ↓ ↘ ↙

	A	B	C	D	E	F	G	H
1	C	E	N	T	A	I	N	E
2	S	W	L	Y	M	D	È	C
3	A	G	Z	H	F	M	T	H
4	V	D	I	Z	A	I	N	E
5	C	E	N	T	I	È	M	E
6	M	S	I	O	I	P	E	W
7	Y	D	I	X	I	È	M	E
8	M	I	L	L	I	È	M	E

Les nombres décimaux

DIZAINE

CENTAINE

DIXIÈME

CENTIÈME

MILLIÈME

4. Mots croisés

Lis les indices. Une lettre par case, sans accent.



1↓ Mouvement de l’eau qui peut faire tourner une hydrolienne.

2→ Ses rayons fournissent de l’énergie aux panneaux photovoltaïques.

3→ Combustible fossile solide, souvent noir, que l’on extrait de mines.

4→ Combustible fossile liquide dont on peut tirer de l’essence.

5. Coloriage magique

Calcule. Colorie selon le résultat.

32−6	30−4	2×13	2×13	2×13
52÷2	27−1	56÷2	60÷2	33−7
2×13	56÷2	23+5	34−6	25+5
56÷2	56÷2	2×14	2×14	2×14
32−6	56÷2	22+6	2×14	30−4

Code

- 26 = blanc
- 28 = bleu
- 30 = jaune

Au crayon, hachure le bleu et fais des points pour le jaune.

6. Mini-sudoku

Place 1, 2, 3 et 4 une fois par ligne, par colonne et par carré de quatre cases.

1	2	4	
2	4		

Je vérifie mes réponses

1. D, B, C, A.

2. germe ; grandit ; graines.

3. Mots mêlés

C	E	N	T	A	I	N	E
S	W	L	Y	M	D	È	C
A	G	Z	H	F	M	T	H
V	D	I	Z	A	I	N	E
C	E	N	T	I	È	M	E
M	S	I	O	I	P	E	W
Y	D	I	X	I	È	M	E
M	I	L	L	I	È	M	E

4. Mots croisés

		C					
	S	O	L	E	I	L	
		U					
		R					
C	H	A	R	B	O	N	
		N					
P	E	T	R	O	L	E	

5. Bateau

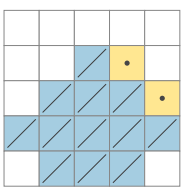

6. Sudoku

1	2	4	3
4	3	1	2
3	1	2	4
2	4	3	1

Document généré par outilspourlaclasse.fr — site indépendant de l'Éducation nationale