Le jardin partagé

Plie le bas de la feuille vers l'arrière. Déplie-le pour vérifier tes réponses.

1. Lis puis réponds aux questions.

Les habitants ont transformé le terrain abandonné en jardin partagé. D'abord, ils ont retiré les déchets. Ensuite, ils ont préparé la terre et semé des fleurs. Aujourd'hui, chacun peut venir observer les insectes et prendre soin des plantes.

Comment était le terrain avant ?

Qu'ont fait les habitants avant de semer ?

À quoi sert le jardin aujourd'hui ?

2. Réunis chaque paire de phrases avec le mot indiqué.

Le sol est sec. Nous arrosons. (donc)

Il pleut. Nous restons sous l'abri. (parce que)

Mina sème. Malik arrose. (pendant que)

3. Mots mêlés

Entoure les mots dans ces sens → ↓ ↘ ↙

	A	B	C	D	E	F	G	H
1	E	R	M	P	T	H	M	K
2	N	G	U	Y	P	D	U	J
3	T	U	L	C	A	V	F	L
4	I	S	T	O	R	H	V	S
5	E	L	I	M	T	W	M	P
6	R	M	P	M	A	G	L	A
7	D	O	L	U	G	U	Q	I
8	T	T	E	N	E	F	S	R

Diviseurs, multiples et division

MULTIPLE

PAIR

COMMUN

ENTIER

PARTAGE

4. Mots croisés

Lis les indices. Une lettre par case, sans accent.

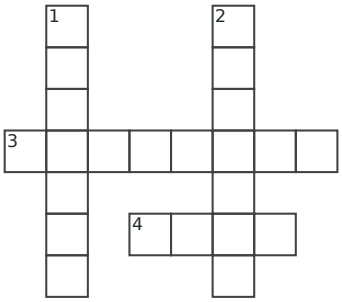

1↓ Principe selon lequel la loi est la même pour tous.

2↓ Premier mot de la devise française.

3→ Personne qui a le droit de participer au scrutin.

4→ Action d'exprimer son choix lors d'une élection.

5. Coloriage magique

Calcule. Colorie selon le résultat.

26−1	50÷2	23+2	24+1	22+3
32−5	22+5	28−1	28−1	19+6
26+1	58÷2	24+5	54÷2	22+5
22+5	21+6	23+4	28−1	23+2
50÷2	22+5	54÷2	31−6	20+5

Code

- 25 = blanc
- 27 = bleu
- 29 = jaune

Au crayon, hachure le bleu et fais des points pour le jaune.

6. Labyrinthe

Entre par la gauche. Sors à droite sans traverser un mur.

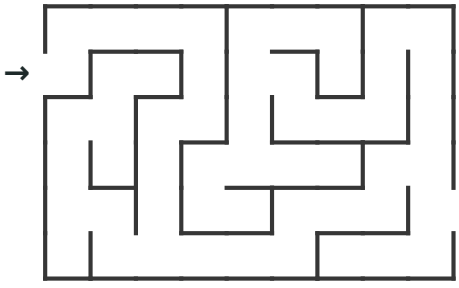

Je vérifie mes réponses

1. Abandonné ; retirer les déchets et préparer la terre ; observer les insectes et soigner les plantes.

2. Le sol est sec, donc nous arrosons. Nous restons sous l'abri parce qu'il pleut. Mina sème pendant que Malik arrose.

3. Mots mêlés

E	R	M	P	T	H	M	K
N	G	U	Y	P	D	U	J
T	U	L	C	A	V	F	L
I	S	T	O	R	H	V	S
E	L	I	M	T	W	M	P
R	M	P	M	A	G	L	A
D	O	L	U	G	U	Q	I
T	T	E	N	E	F	S	R

4. Mots croisés

	E						L	
	G						I	
	A						B	
E	L	E	C	T	E	U	R	
	I						R	
	T			V	O	T	E	
	E						E	

5. Tasse

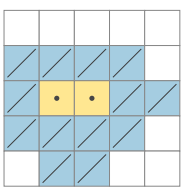

6. Chemin

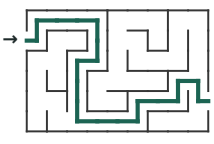

Préparer une sortie

Plie le bas de la feuille vers l'arrière. Déplie-le pour vérifier tes réponses.

1. Résous en détaillant tes calculs. Utilise le dos si nécessaire.

Un car transporte 48 personnes. Combien faut-il de cars pour 125 personnes ?

Le trajet commence à 8 h 45 et dure 1 h 35. À quelle heure arrive-t-on ?

Une entrée coûte 6,50 €. Quel est le prix de 4 entrées ?

2. Calcule le prix de chaque lot.

Un carnet coûte 2,40 €. Tous les carnets coûtent le même prix.

3 carnets

5 carnets

10 carnets

3. Mots mêlés

Entoure les mots dans ces sens → ↓ ↘ ↙

	A	B	C	D	E	F	G	H
1	V	U	V	P	Z	X	K	S
2	A	C	A	O	X	O	K	M
3	I	O	F	U	L	E	N	V
4	S	E	Y	M	T	P	P	S
5	S	U	T	O	E	O	D	A
6	E	R	Q	N	U	U	X	N
7	A	Q	H	S	R	L	Z	G
8	U	D	F	A	O	S	Q	M

Suivre le trajet du sang

SANG

POULS

POUMONS

VAISSEAU

CŒUR

4. Mots croisés

Lis les indices. Une lettre par case, sans accent.

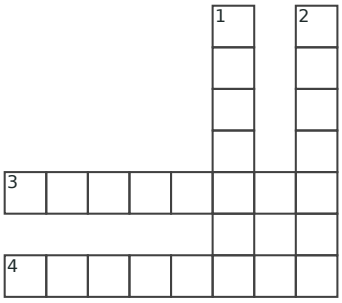

1↓ Dans 28,47, quel est le rang du chiffre 2 ? Écris ce rang au singulier.

2↓ Dans 0,1, le chiffre 1 représente un … de l'unité.

3→ Dix dizaines forment une …, comme dans 100,75.

4→ Une pièce d'un centime représente un … d'euro.

5. Coloriage magique

Calcule. Colorie selon le résultat.

20+6	52÷2	25+3	2×13	31−5
2×13	56÷2	2×14	32−4	24+2
32−6	52÷2	24+4	2×13	52÷2
56÷2	23+5	56÷2	25+3	26+2
2×13	2×13	36−6	52÷2	2×13

Code

- 26 = blanc
- 28 = bleu
- 30 = jaune

Au crayon, hachure le bleu et fais des points pour le jaune.

6. Mini-sudoku

Place 1, 2, 3 et 4 une fois par ligne, par colonne et par carré de quatre cases.

1			
	2		
		2	1
			4

Je vérifie mes réponses

1. 3 cars : 2 ne suffisent pas (96 places). Arrivée à 10 h 20. 4 × 6,50 € = 26 €.

2. 7,20 € ; 12 € ; 24 €.

3. Mots mêlés

V	U	V	P	Z	X	K	S
A	C	A	O	X	O	K	M
I	O	F	U	L	E	N	V
S	E	Y	M	T	P	P	S
S	U	T	O	E	O	D	A
E	R	Q	N	U	U	X	N
A	Q	H	S	R	L	Z	G
U	D	F	A	O	S	Q	M

4. Mots croisés

				D		D		
				I		I		
				Z		X		
				A		I		
C	E	N	T	A	I	N	E	
					N		M	
C	E	N	T	I	E	M	E	

5. Sapin

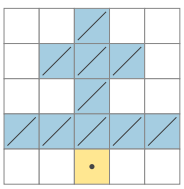

6. Sudoku

1	3	4	2
4	2	1	3
3	4	2	1
2	1	3	4

Document généré par outilspourlaclasse.fr — site indépendant de l'Éducation nationale

Énigmes de fin d’année

Plie le bas de la feuille vers l’arrière. Déplie-le pour vérifier tes réponses.

1. Trouve le nombre et explique.

Je suis un nombre entier à deux chiffres. Mes chiffres ont une somme de 11. Mon chiffre des dizaines est supérieur de 3 à celui des unités.

2. Trouve tous les trajets différents et écris-les.

Pour aller de A à B, on fait exactement deux déplacements : un vers la droite (D) et un vers le haut (H).

3. Mots mêlés

Entoure les mots dans ces sens → ↓ ↘ ↙

	A	B	C	D	E	F	G	H
1	V	K	D	E	C	D	G	Q
2	C	N	E	Q	H	N	R	L
3	S	O	N	H	A	A	A	E
4	S	J	T	V	N	G	N	C
5	U	J	I	J	T	E	D	T
6	O	Z	S	L	E	R	E	U
7	C	D	T	H	R	U	U	R
8	G	V	E	E	B	C	R	E

Les familles de mots

NAGER

LECTURE

GRANDEUR

DENTISTE

CHANTER

4. Mots croisés

Lis les indices. Une lettre par case, sans accent.

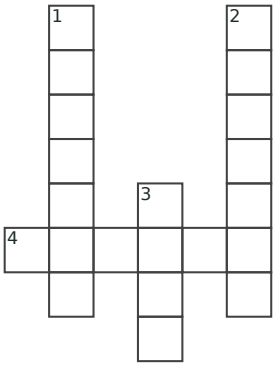

1↓ Combustible fossile solide, souvent noir, que l’on extrait de mines.

2↓ Combustible fossile liquide dont on peut tirer de l’essence.

3↓ C’est son mouvement qui fait tourner les pales d’une éolienne.

4→ Ses rayons fournissent de l’énergie aux panneaux photovoltaïques.

5. Coloriage magique

Calcule. Colorie selon le résultat.

28−1	34−5	27+2	58÷2	31−4
58÷2	32−3	62÷2	24+5	22+7
58÷2	58÷2	23+6	24+5	58÷2
24+3	28−1	62÷2	22+5	29−2
26+1	54÷2	62÷2	54÷2	54÷2

Code

- 27 = blanc
- 29 = bleu
- 31 = jaune

Au crayon, hachure le bleu et fais des points pour le jaune.

6. Labyrinthe

Entre par la gauche. Sors à droite sans traverser un mur.

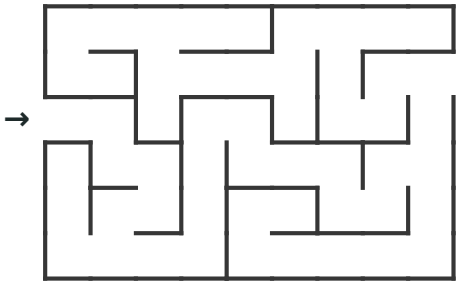

Je vérifie mes réponses

1. 74 : 7 + 4 = 11 et 7 − 4 = 3.

2. Deux trajets : D puis H ; H puis D.

3. Mots mêlés

V	K	D	E	C	D	G	Q
C	N	E	Q	H	N	R	L
S	O	N	H	A	A	A	E
S	J	T	V	N	G	N	C
U	J	I	J	T	E	D	T
O	Z	S	L	E	R	E	U
C	D	T	H	R	U	U	R
G	V	E	E	B	C	R	E

4. Mots croisés

		C						P
		H						E
		A						T
		R						R
		B		V				O
S	O	L	E	I				L
		N		N				E
				T				

5. Champignon 6. Chemin

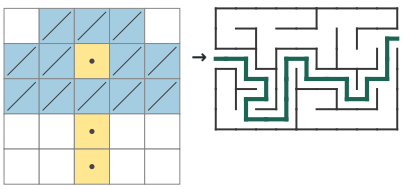

Le plan du quartier

Plie le bas de la feuille vers l'arrière. Déplie-le pour vérifier tes réponses.

1. Lis le plan puis réponds.

Sur une rue, de gauche à droite : école, parc, bibliothèque, mairie. La piscine est en face du parc.

Quel lieu se trouve entre le parc et la mairie ?

Quel lieu est en face du parc ?

Quel lieu est immédiatement à gauche du parc ?

2. Écris les lieux dans l'ordre demandé.

De la mairie à l'école, en suivant la rue.

De l'école à la mairie, en suivant la rue.

3. Mots mêlés

Entoure les mots dans ces sens → ↓ ↘ ↙

	A	B	C	D	E	F	G	H
1	S	A	O	K	F	Q	A	T
2	T	T	U	V	P	V	L	K
3	E	E	V	K	J	A	M	R
4	X	L	R	A	Q	P	A	A
5	T	I	I	X	O	E	G	I
6	I	E	È	E	P	U	C	L
7	L	R	R	I	C	R	N	V
8	E	A	E	Q	B	È	Y	I

L'âge industriel en France

OUVRIÈRE

RAIL

TEXTILE

ATELIER

VAPEUR

4. Mots croisés

Lis les indices. Une lettre par case, sans accent.



1→ Liquide rouge qui transporte des gaz et des nutriments dans le corps.

2↓ Vaisseau dans lequel le sang s'éloigne du cœur.

3↓ Vaisseau dans lequel le sang revient vers le cœur.

4→ Nom commun à une artère, une veine et un capillaire sanguin.

5. Coloriage magique

Calcule. Colorie selon le résultat.

60÷2	2×15	24+4	60÷2	60÷2
2×15	24+6	27+5	35−5	2×15
36−8	2×15	2×16	27+3	35−7
60÷2	22+8	2×16	22+8	2×15
24+6	32−4	2×14	2×14	60÷2

Code

- 28 = blanc
- 30 = bleu
- 32 = jaune

Au crayon, hachure le bleu et fais des points pour le jaune.

6. Mini-sudoku

Place 1, 2, 3 et 4 une fois par ligne, par colonne et par carré de quatre cases.

	3		4
		2	
			2
		3	

Je vérifie mes réponses

1. La bibliothèque ; la piscine ; l'école.

2. Mairie, bibliothèque, parc, école ; école, parc, bibliothèque, mairie.

3. Mots mêlés

S	A	O	K	F	Q	A	T
T	T	U	V	P	V	L	K
E	E	V	K	J	A	M	R
X	L	R	A	Q	P	A	A
T	I	I	X	O	E	G	I
I	E	È	E	P	U	C	L
L	R	R	I	C	R	N	V
E	A	E	Q	B	È	Y	I

4. Mots croisés



5. Papillon

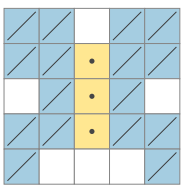

6. Sudoku

2	3	1	4
1	4	2	3
3	1	4	2
4	2	3	1

Document généré par outilspourlaclasse.fr — site indépendant de l'Éducation nationale